TUGAS

INOVASI PEMBELAJARAN LABORATORIUM

RITA NURMAYANTI AMAS / 31024

MAN 1 KARAWANG

KABUPATEN KARAWANG

BIMTEK KEPALA LABORATORIUM

GELOMBANG KE – 31

UNIVERSITAS PENDIDIKAN INDONESIA

11 Juni sd 18 Juni 2022

LIVEWORKSHEETS

LEMBAR KERJA PESERTA DIDIK

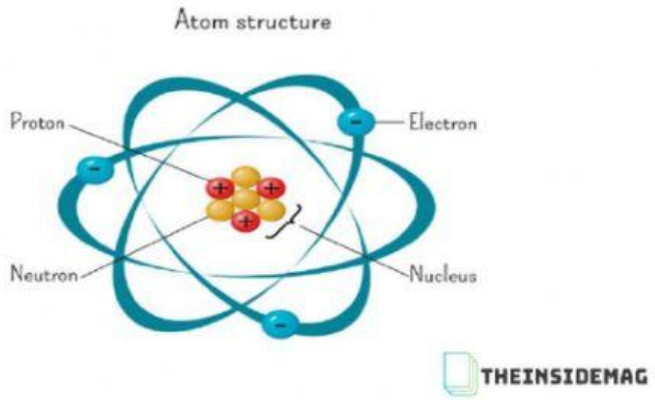

LEMBAR KERJA PESERTA DIDIK

MATA PELAJARAN : FISIKA

KELAS : X

GURU PENGAMPU : RITA NURMAYANTI AMAS

MADRASAH ALIYAH NEGERI (MAN) 1 KARAWANG

LIVEWORKSHEETS

Nama : Kelas :

1. Perhatikan gambar berikut :

Micrometer skrup Mistar Neraca Pegas

Jangka Sorong Neraca empat lengan

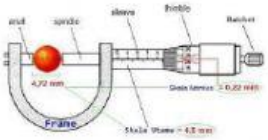

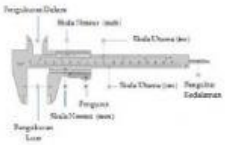



2. Berikan keterangan pada gambar berikut :

LIVEWORKSHEETS

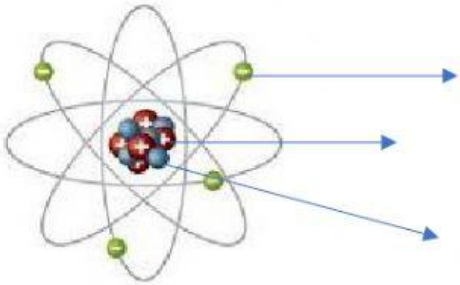

3. Hubungkan besaran berikut dengan satuaanya

a. Usaha	1. meter
b. Gaya	2. joule
c. Panjang	3. kelvin
d. Suhu	4. ampere
e. Arus Listrik	5. kelvin

4. Pilihlah jawab yang benar !
   Besaran gaya mempunyai satuan…
   a. Kg.m/s
   b. Kg.m/s^2
   c. Kg/s^2
   d. m/s
   e. m/s^2
5. Simaklah video dibawahh ini. Dan tuliskan nama besaran beserta satuannya dari video tersebut !

6. Jawablah pertanyaan berikut.

LIVEWORKSHEETS

LIVEWORKSHEETS