Cuerpos redondos

PLAN DE MEJORA

Nombre _____ Fecha _____

RECUERDA

- Los cuerpos geométricos con superficies curvas se llaman cuerpos redondos.
- El **cilindro**, el **cono** y la **esfera** son cuerpos redondos.

1 **Completa las fichas.**

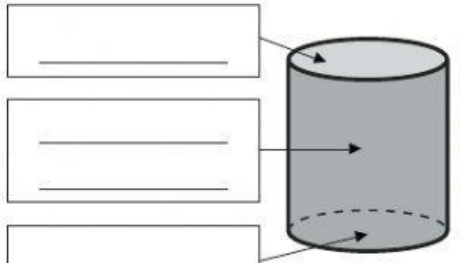

- Número de bases ▶ _____
- Número de vértices ▶ _____
- Nombre ▶ _____

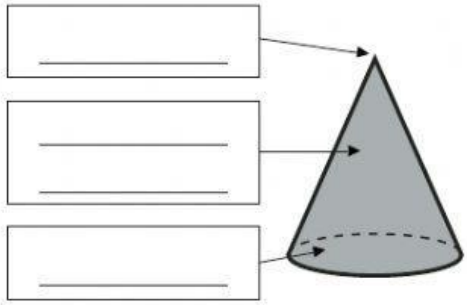

- Número de bases ▶ _____
- Número de vértices ▶ _____
- Nombre ▶ _____

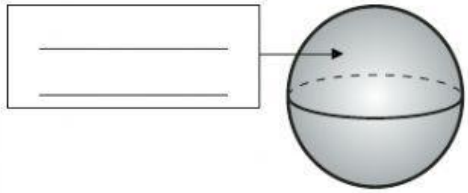

- Número de bases ▶ _____
- Número de vértices ▶ _____
- Nombre ▶ _____

2 **Colorea.**

rojo el cuerpo redondo cuyo radio es mayor que 1 centímetro.

azul el cuerpo redondo cuyo radio es igual a 1 centímetro.

verde el cuerpo redondo cuyo radio es menor que 1 centímetro.

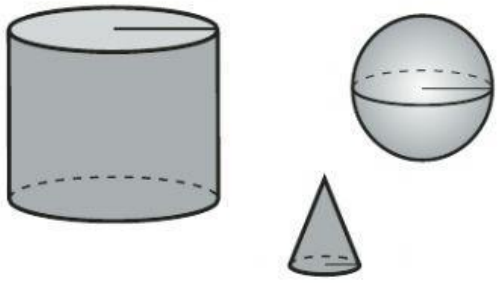

LIVEWORKSHEETS