# Tema:7

1) Ordena del 1-4 de los pasos para hacer una mediatriz.

Con centro en el punto B y con la misma abertura que en el paso 2, dibujo un arco que corte al arco anterior.

Con centro en el punto A, dibujo un arco en el interior del ángulo.

Uno el punto C con el vértice del ángulo y obtengo la **bisectriz** del ángulo.

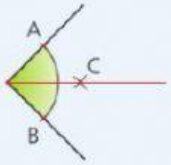


Pincho con el compás en el vértice y dibujo un arco que corte a los lados en los puntos A y B.

2) Ordena de 1-3 de como hacer una mediatriz

Trazo la recta que pasa por los puntos C y D. Esta recta es la **mediatriz** del segmento.

Trazo la recta que pasa por los puntos C y D. Esta recta es la **mediatriz** del segmento.

Con centro en el punto B y con la misma abertura que en el paso 2, dibujo un arco que corte al arco anterior.

LIVEWORKSHEETS

3)

4) Escribe el n[illegible]re de estos triángulos [illegible]n sus lados

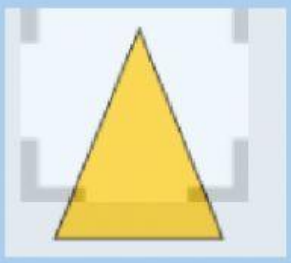





5) Escribe los nombres de estos triángulos según sus ángulos



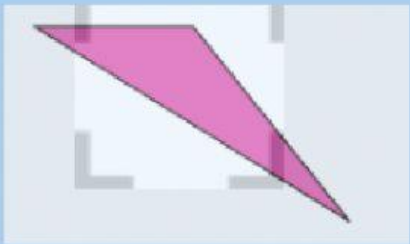

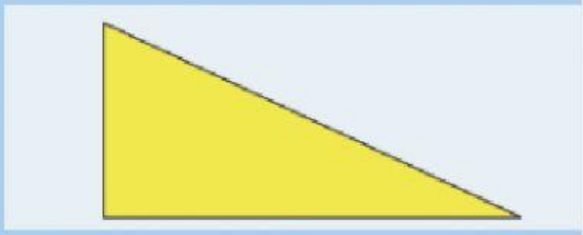

6) Haz un ortocentro de un obtusángulo, de un rectángulo y de un acutangulo en el cuaderno.

LIVEWORKSHEETS