LKPD 3.1 Gerak Tumbuhan

NAMA:

KELAS:

1. ISILAH TEKA-TEKI SILANG BERIKUT



MENDATAR
3. gerak sebagian tubuh tumbuhan yang tidak dipengaruhi oleh arah datangnya rangsangan
6. gerak tumbuhan yang dipengaruhi oleh rangsangan dari dalam tubuh tumbuhan yakni berupa perubahan kadar air

MENURUN
1. gerak tumbuhan yang rangsangannya berasal dari luar tubuh tumbuhan
2. gerak tumbuhan yang rangsangannya berasal dari dalam tubuh tumbuhan
4. gerak seluruh tubuh tumbuhan bersel satu atau bagian dari sel tumbuhan yang arahnya dipengaruhi oleh arah datangnya rangsangan
5. gerak sebagian tubuh tumbuhan yang arah geraknya dipengaruhi oleh arah datangnya rangsangan

2. PASANGKAN KATA DI SEBELAH KIRI DENGAN ISTILAHNYA DI SEBELAH KANAN DENGAN MENARIK GARIS

Rangsangan cahaya	KEMO
Rangsangan gravitasi	TIGMO/ SEISMO
Rangsangan air	FOTO
Rangsangan bahan kimia	GEO
Rangsangan suhu	TERMO
Rangsangan sentuhan	HIDRO

LIVEWORKSHEETS

3. TULISKAN NAMA GERAK TUMBUHAN YANG SESUAI DENGAN GAMBAR BERIKUT.

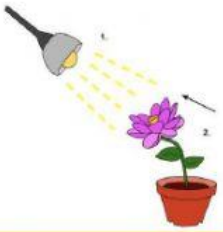



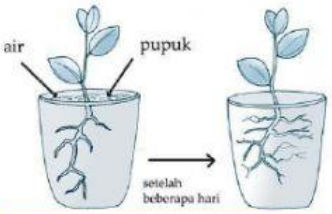











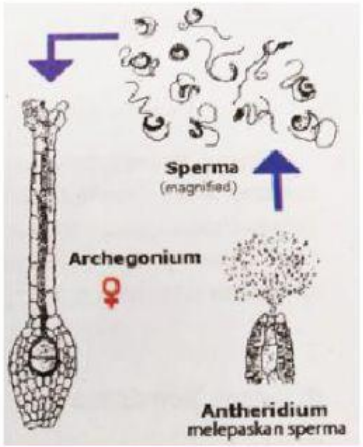

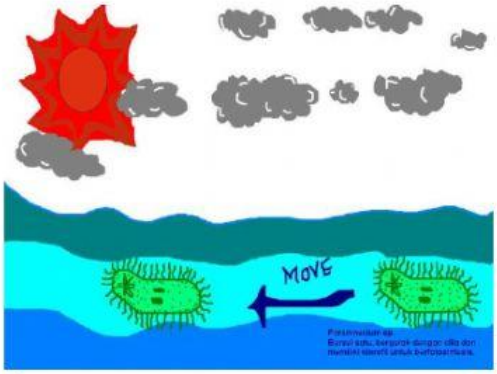

LIVEWORKSHEETS