ชื่อ-นามสกุล _____ เลขที่ _____ ชั้น _____

ใบงาน

เรื่อง.. ลองดูสิ ไหนปริซึม

คำชี้แจง ให้นักเรียนพิจารณารูปต่อไปนี้ว่ารูปใดเป็นรูปปริซึม โดยถ้าข้อใดเป็นปริซึม ให้กดเลือกคำตอบที่ถูกต้อง และเลือกหมายเลขที่เป็นฐานของปริซึมให้ถูกต้อง

1.

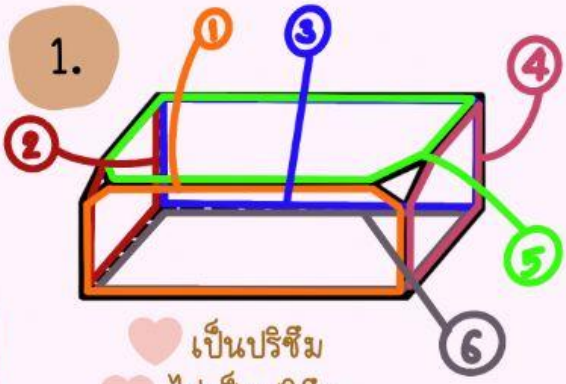

- เป็นปริซึม
- ไม่เป็นปริซึม

2.

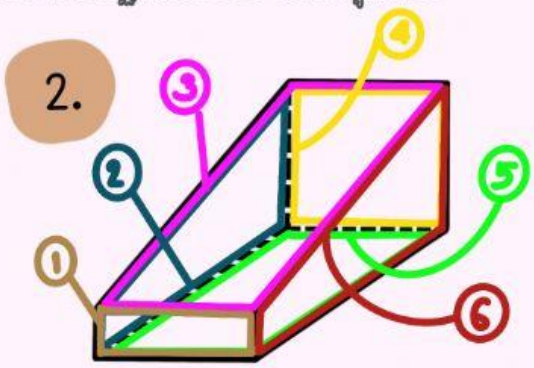

- เป็นปริซึม
- ไม่เป็นปริซึม

3.

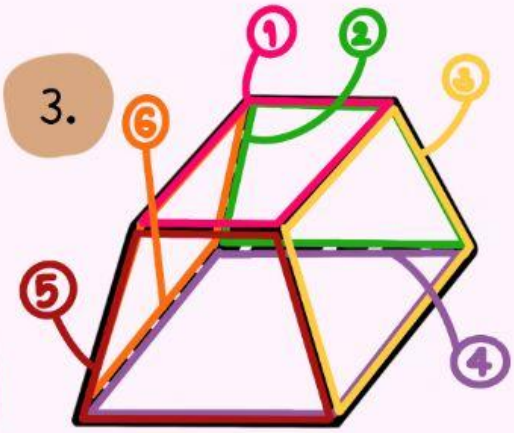

- เป็นปริซึม
- ไม่เป็นปริซึม

4.

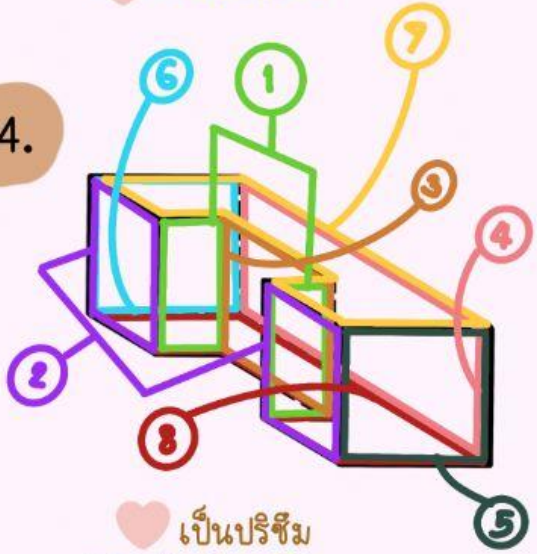

- เป็นปริซึม
- ไม่เป็นปริซึม

LIVEWORKSHEETS