Actividad 4.

Observa los pasos para multiplicar haciendo líneas y puntos.

Multiplica 2 × 6. Traza 2 líneas rojas para indicar el primer factor y 6 azules para indicar el segundo factor. Mira el ejemplo.



Dibuja puntos en la intersección de cada línea. Luego, cuenta los puntos que dibujaste. Mira el ejemplo.

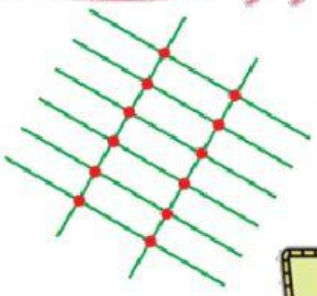

2 X 6 = 12

Completa las líneas y multiplica con líneas y puntos:

4 X 8 =



4 X 6 =



Resuelve y escribe V si el producto es correcto o F si el producto es falso:

8 X 32 = 256 ( )	8 X 9 = 73 ( )	8 X 18 = 144 ( )	8 X 2 = 14 ( )
8 X 8 = 63 ( )	8 X 65 =520 ( )	8 X 10 = 80 ( )	8 X 97 =776 ( )
8 X 7 = 56 ( )	8 X 3 = 24 ( )	8 X 4 = 32 ( )	8 X 5 = 40 ( )

LIVEWORKSHEETS