El Sol, la Tierra y el sistema solar.

Primero de Primaria

1 Elige el nombre de los ocho planetas del sistema solar.



El planeta 5 es
El planeta 1 es
El planeta 2 es
El planeta 8 es
El planeta 3 es
El planeta 4 es
El planeta 6 es
El planeta 7 es

LIVEWORKSHEETS

2 Elige la respuesta correcta.

- El Sol tarda 24 horas en girar sobre sí mismo.
- La Tierra proporciona luz y calor al Sol.
- El Sol gira alrededor de la Tierra.
- En la noche no llega la luz ni el calor del Sol.
- La Tierra gira alrededor del Sol.

3 Mira las cuatro fases de la Luna y une.

luna llena | cuarto creciente | cuarto menguante | luna nueva

LIVEWORKSHEETS

4. Elige las respuestas correctas.



La Tierra tarda en girar sobre sí misma. Este movimiento de la Tierra provoca

5. Escribe la palabra correcta.

- Es el planeta más pequeño.
  Es
- Es el planeta más grande.
  Es
- Es el planeta más alejado del Sol.
  Es
- No es un planeta. Es nuestra estrella.
  Es
- No es un planeta. Tampoco es una estrella. Es el satélite de la Tierra.
  Es la

LIVEWORKSHEETS

6 Lee y elige la estación correcta.

- Llueve y la temperatura es cálida. La mayoría de las plantas florecen.
- Hace mucho calor y apenas llueve. Las plantas dan frutos.
- Llueve y el tiempo es fresco. Muchos árboles pierden sus hojas.
- Hace frío y suele nevar. Muchos árboles están sin hoja.

7 Mira y elige la respuesta correcta.



Además de girar sobre sí misma, la Tierra gira alrededor . Este movimiento dura y provoca

LIVEWORKSHEETS