FICHA 30

Matemáticas

Nombre _____ Fecha 19-05-2020

1 Calcula cuánto mide el ángulo coloreado de negro en cada triángulo. La suma de los tres ángulos debe ser 180°.

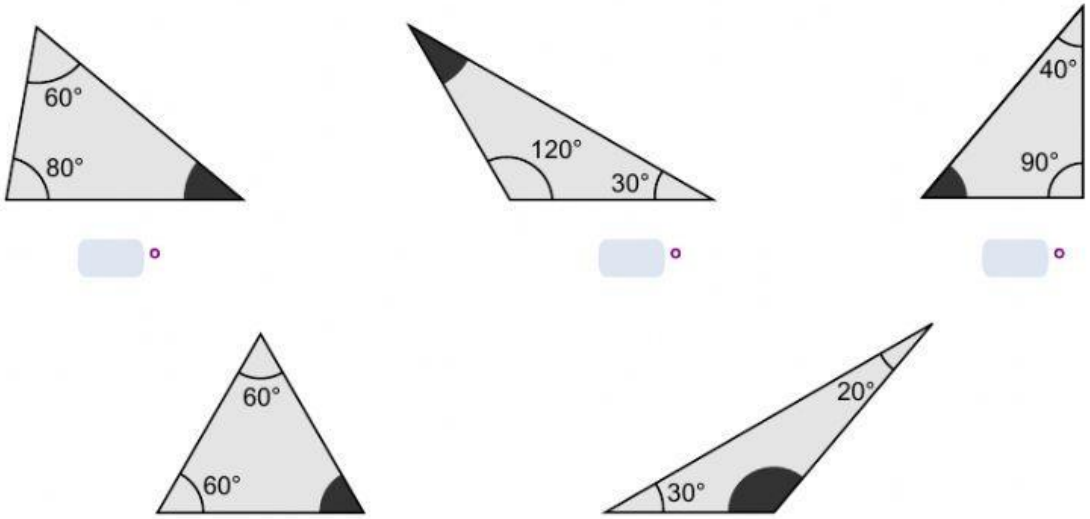

REPASA ESTA INFORMACIÓN.

2 Piensa y contesta.

- ¿Cuántas bases tiene un triángulo? ____ ¿Y un paralelogramo? ____
- ¿Cuántas alturas tiene un triángulo? ____ ¿Y un paralelogramo? ____

Actividades para 6º curso. CEIP San Martín de Campijo

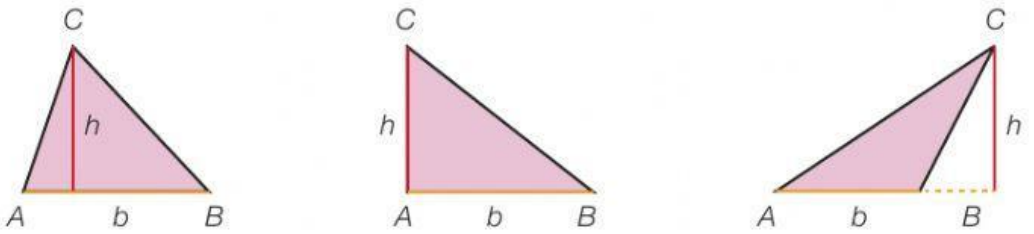

- Base de un triángulo o paralelogramo es uno cualquiera de sus lados.
- Altura de un triángulo o paralelogramo es el segmento perpendicular a la base o a su prolongación, trazado desde un vértice opuesto.

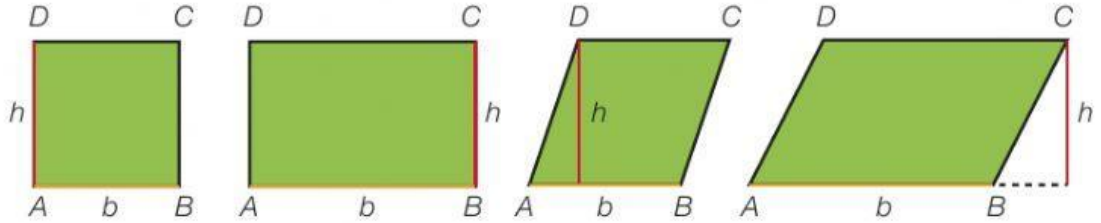

3 **En cada caso, elige la altura correspondiente al lado *AB*.**

Arrastra el segmento correspondiente a la altura a su lugar.

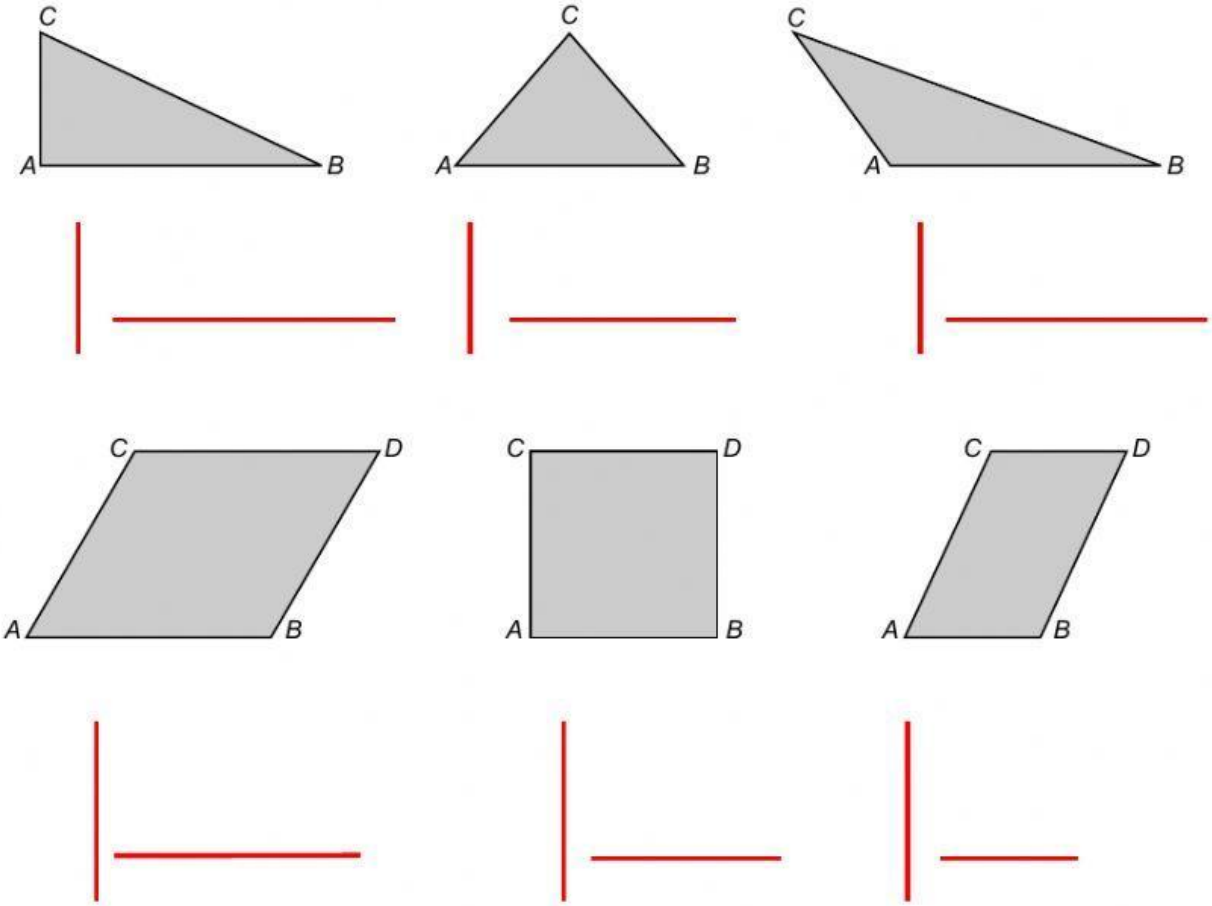

Actividades para 6º curso. CEIP San Martín de Campijo

- ¿Cuántas alturas correspondientes al lado *AB* puedes trazar en cada paralelogramo? ____ alturas.
- ¿Desde qué vértices las puedes trazar? ____

4 **En este triángulo os he trazado las alturas correspondientes a cada uno de los lados. Contesta.**

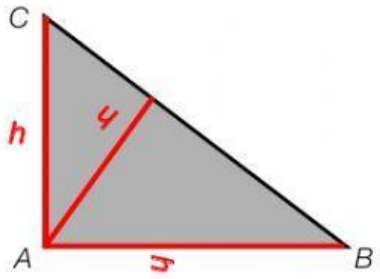

- Observa la altura correspondiente al lado *AB*.
  ¿Con qué lado del triángulo coincide esta altura? ____
- Observa la altura correspondiente al lado *AC*.
  ¿Con qué lado del triángulo coincide esta altura? ____

5 **Calcula cuánto mide el ángulo coloreado de negro en cada cuadrilátero. La suma de los cuatro ángulos debe ser 360°.**

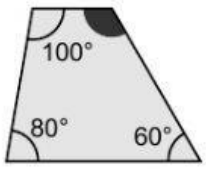

____ °

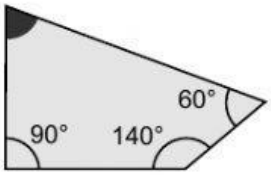

____ °

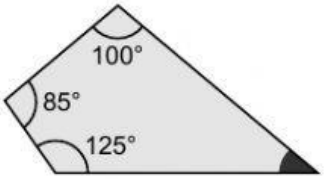

____ °

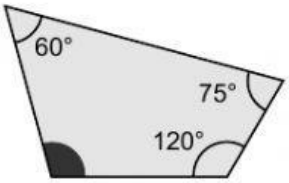

____ °

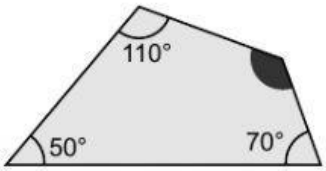

____ °

Actividades para 6º curso. CEIP San Martín de Campijo