1. Osserva il disegno e completa le definizioni con i termini corretti

- L'angolo è la parte di piano compresa tra due ..... che hanno origine nello stesso punto.
- Le due semirette sono i ..... dell'angolo.
- Il punto di origine, O, si chiama.....
- Lo spazio racchiuso tra i due lati costituisce l'.....dell'angolo.

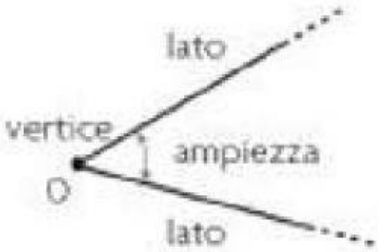


2. Scrivi il nome dell'angolo e completa

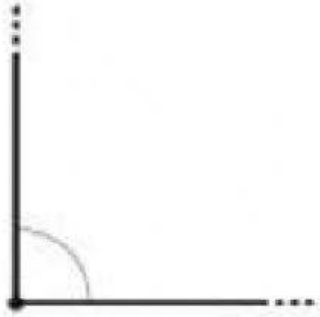

angolo

_____

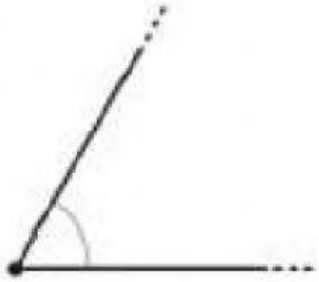

angolo _____;

è _____ ampio

di un angolo retto.

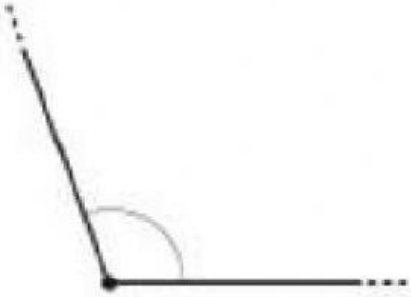

angolo _____;

è _____ ampio

di un angolo retto.

angolo _____;

è ampio quanto _____ angoli retti.

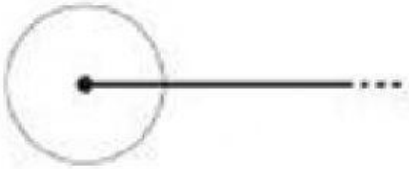

angolo _____;

è ampio quanto _____ angoli retti.

3. Completa le frasi




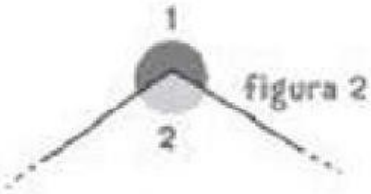


- Nella figura 1 l'angolo concavo è il numero _____
- Nella figura 2 l'angolo convesso è il numero _____

LIVEWORKSHEETS

Questo strumento si chiama

.....

Misura l'ampiezza degli

.....

L'unità di misura delle ampiezze

è il .....

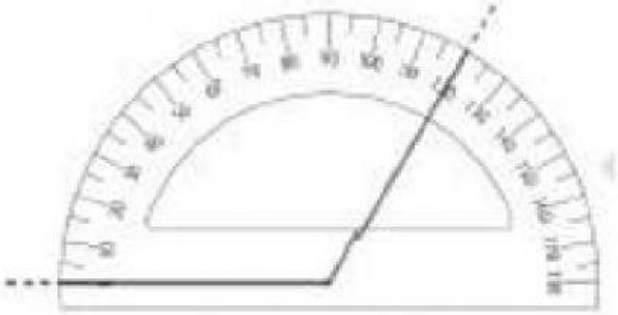

4. Osserva le seguenti coppie di linee e completa

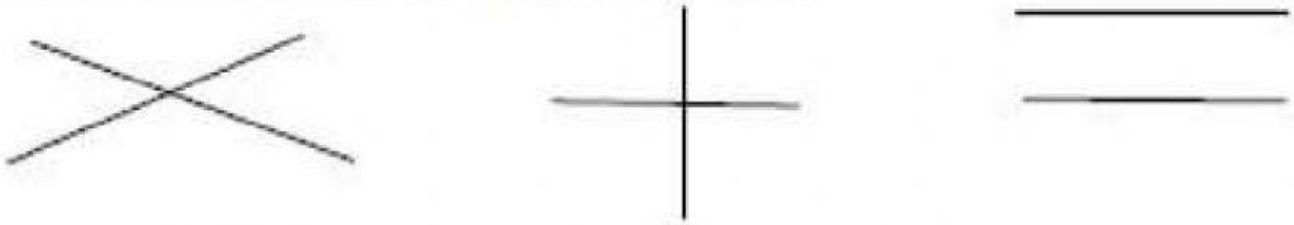

Due rette incidenti formano 2 angoli ..... e 2 angoli .....

Due rette perpendicolari formano ..... angoli .....

Due rette ....., non formano angoli.

LIVEWORKSHEETS