مدرسة الشعلة الخاصة

س١: صلي كل شكل بالخاصية المناسبة له:

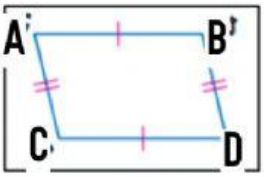

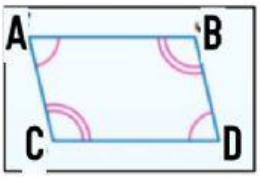

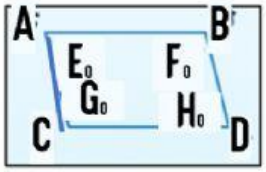

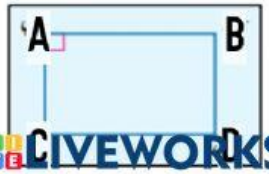

إذا كانت إحدى زوايا متوازي الاضلاع قائمة، فإن زواياه الأربع قوائم

الزوايا المتتالية متكاملة

كل ضلعين متقابلين متطابقين

كل زاويتين متقابلتين متطابقتين.

LIVEWORKSHEETS