COMPARAR ÁREAS O SUPERFICIES

1. SELECCIONE LA IMAGEN QUE TIENE MÁS ÁREA O SUPERFICIE.

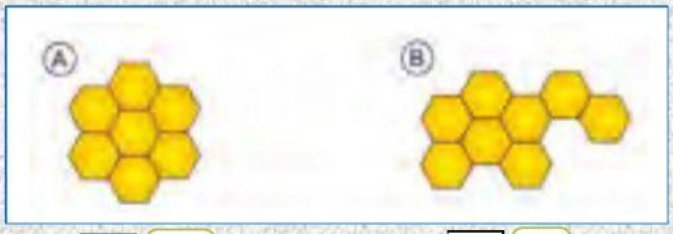

A ☐ B ☐

2. SELECCIONE LA LETRA QUE CONTENGA LA RESPUESTA CORRECTA.

- ○ **A.** 6 cm^2
- ○ **B.** 9 cm^2
- ○ **C.** 12 cm^2
- ○ **D.** 14 cm^2

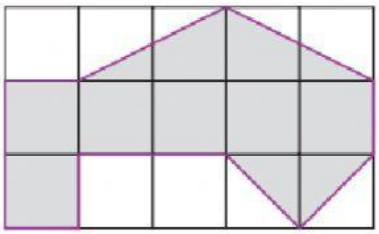

3. ESCRIBA LA MEDIDA DEL ÁREA DE CADA FIGURA.

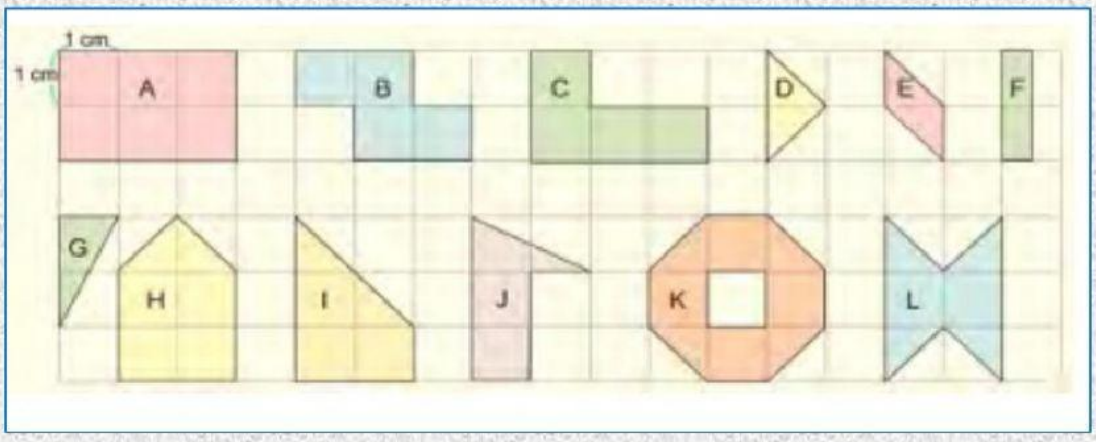

A ☐ cm^2 B ☐ cm^2 C ☐ cm^2 D ☐ cm^2

E ☐ cm^2 F ☐ cm^2 G ☐ cm^2 H ☐ cm^2

I ☐ cm^2 J ☐ cm^2 K ☐ cm^2 L ☐ cm^2

LIVEWORKSHEETS