مملكة البحرين
وزارة التربية والتعليم
مدرسة عالي الإعدادية للبنين
قسم الرياضيات

رؤية المدرسة: تعليم وتمكين لجيل قائد واعد

العام الدراسي: ٢٠٢١ ـ ٢٠٢٢م
الفصل الدراسي الثاني
٧/ ٣ / ٢٠٢٢م
يوم الاثنين

النشاط التجميعي: الزوايا المتتامة والمتكاملة

أولًا: حدد ما إذا كان كل زاويتين من الزوايا الآتية متكاملتين أو متتامتين أو غير ذلك:

١)
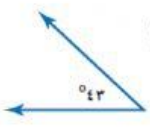

٢)
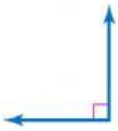

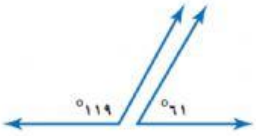

٣)
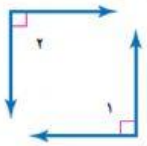

ثانيًا: إذا كانت الزاوية س و الزاوية ص متكاملتين، وكانت قياس الزاوية س تساوي ١١٥ درجة فما قياس الزاوية ص؟

ثالثًا: استعمل الشكل المجاور لإيجاد:

١) زوج من الزوايا المتتامة. ∠ وَ ∠

٢) زوج من الزوايا المتكاملة. ∠ وَ ∠

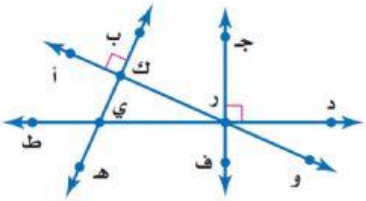

LIVEWORKSHEETS

إعداد: أ. جميل حسن إبراهيم بوعبود