# 26. ASTEKO ETXERAKO LANAK (1)

## NEURRIAK (luzera)

### 1 Adierazi metrotan.

*EZ AHAZTU NEURRI UNITATEA IDAZTEA: m

- 2 dam = 20 m
- 4 dam =
- 5 dam =
- 7 dam =
- 3 km = _
- 5 km = _

### 2 Kalkulatu zenbat metro diren.

- 4 dam eta 2 m =
- 3 hm eta 54 m =
- 7 km eta 530 m =
- 8 km eta 80 m = _
- 9 km eta 6 m = _
- 8 hm eta 2 m = _
- 9 hm eta 30 m =



LIVEWORKSHEETS

**7** **ARRAZOIKETA. Ordenatu luzerak handienetik txikienera.**

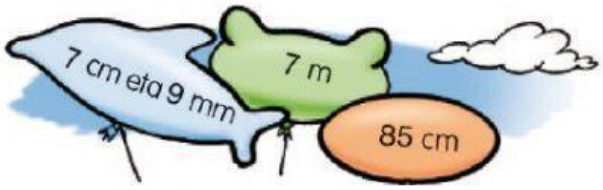


_____ > _____ > _____

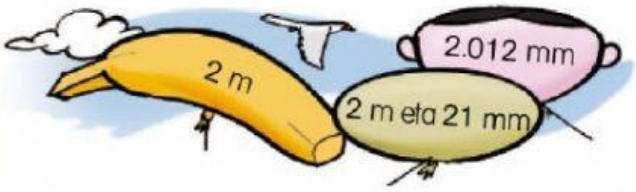


_____ > _____ > _____

**5** **Ebatzi.**

- Parkean bizikletaz ibiltzeko zirkuitu berri bat egin dute, 6 km eta erdikoa. Zenbat metro luze da eraiki berri den zirkuitua?

EMAITZA _ m luze da _____.

- Autobus batek 1.500 km egin zituen joan den astean, eta aste honetan, distantzia horren herena. Zenbat kilometro egin ditu, guztira, bi asteotan?

EMAITZA _____ km egin ditu _____.

- 8 km-ko errepide zati batean seinale horizontal bat jarri dute 100 m-tik 100 m-ra. Zenbat seinale jarri dira?

EMAITZA _____ seinale jarri dira _____.



LIVEWORKSHEETS

## GEOMETRIA

### Prismak eta piramideak: elementuak

**1** **Idatzi adierazitako elementuen izenak eta osatu fitxak.**

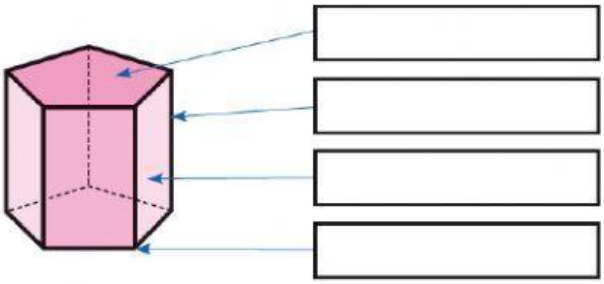

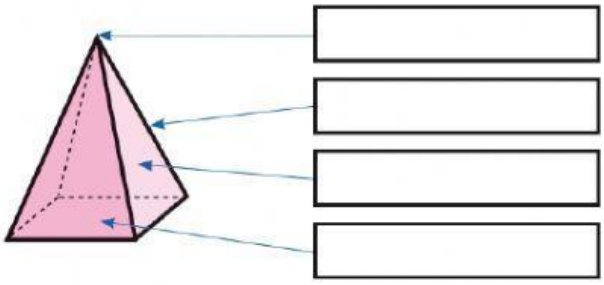

### Prismen eta piramideen sailkapena

**1** **Idatzi gorputz bakoitzaren izena.**

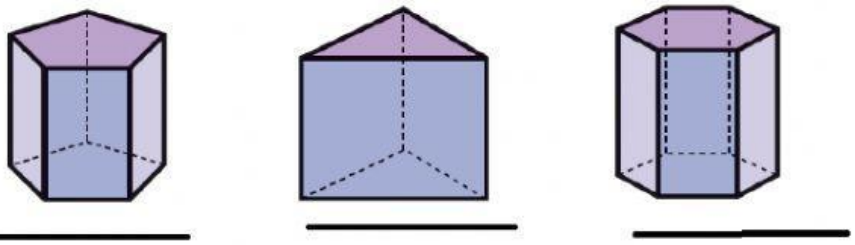

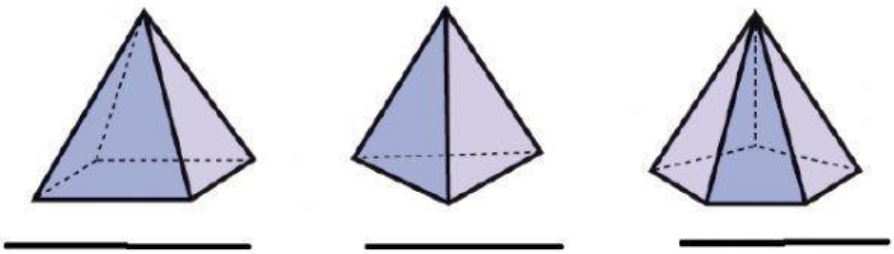



LIVEWORKSHEETS

## 2 Irakurri gorputz geometriko bakoitzaren fitxa eta idatzi izena.

- Bi oinarri ditu.
- Alboko bost aurpegi ditu.

▶ _____

- Bost erpin ditu.
- Alboko aurpegiak triangeluak dira.

▶ _____

- Sei erpin ditu.
- Alboko hiru aurpegi ditu.

▶ _____

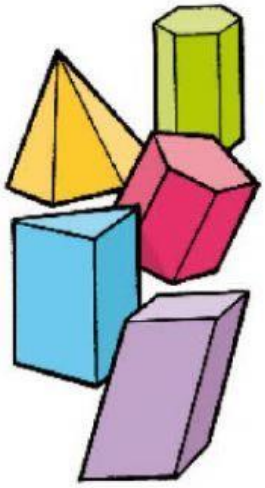

GOGOAN IZAN BEHAR DUGUN TEORIA:

**!**

▶ **Prismak** poligonoz osatutako gorputz geometrikoak dira.
Bi oinarri berdin eta hainbat alboko aurpegi dituzte.

Haien izena oinarritzat duten poligonoaren araberakoa da.

| Prisma triangeluarra | Lau angeluko prisma | Prisma pentagonala | Prisma hexagonala |
|---|---|---|---|
| 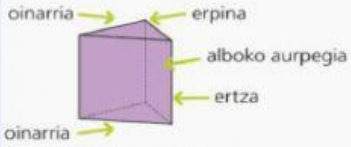  | 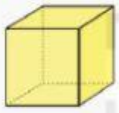 | 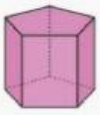 | 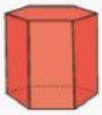 |
| Oinarriak triangeluak dira. | Oinarriak karratuak dira. | Oinarriak pentagonoak dira. | Oinarriak hexagonoak dira. |

▶ **Piramideek** oinarri bakarra dute, alboko aurpegiak triangeluak direlako.

Haien izena oinarritzat duten poligonoaren araberakoa da.

| Piramide triangeluarra | Lau angeluko piramidea | Piramide pentagonala | Piramide hexagonala |
|---|---|---|---|
| 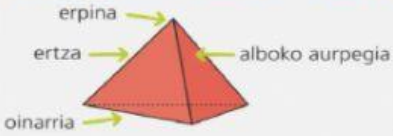  | | | |
| Oinarria triangelu bat da. | Oinarria karratu bat da. | Oinarria pentagono bat da. | Oinarria hexagono bat da. |

▶ **Gorputz biribilek** alde biribilduak dituzte.

| Zilindroa | Konoa | Esfera |
|---|---|---|
| 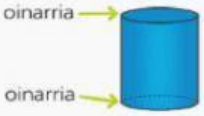  | |  |
| Bi oinarri zirkular ditu. | Oinarri zirkular bakarra du. | Ez du oinarririk. |



LIVEWORKSHEETS