新竹縣湖口高中國中部　　# 容量單位- 公升與毫升　　學生:_____

隨堂測驗 1: 依題目意思,請勾選一個正確答案

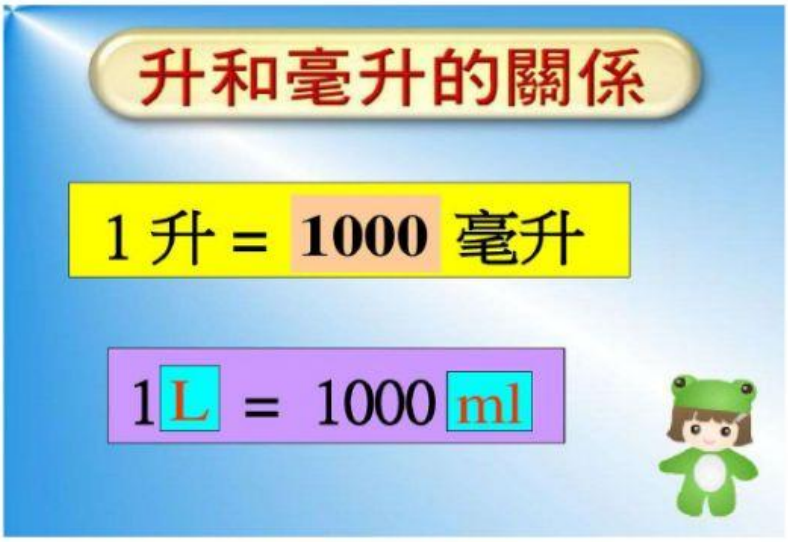

2公升=2000毫升

3 公升=　　毫升

- ☐ 300
- ☐ 3000
- ☐ 3030

隨堂測驗 2: 請依題目意思,勾選出正確答案

公升與毫升互換

- 1罐養樂多200毫升
- 2罐養樂多　　毫升
- 3罐養樂多　　毫升
- 4罐養樂多　　毫升
- 5罐養樂多　　毫升

■5 罐養樂多共　　公升

LIVEWORKSHEETS

隨堂測驗 3: 將茶壺的水倒入數個量杯中，全部水的容量是多少?

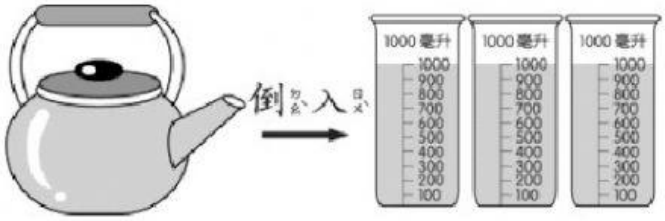

- ☐ 3 公升
- ☐ 30 公升
- ☐ 300 毫升

隨堂測驗 4: 將水桶的水倒入數個量杯中，全部水的容量是多少?

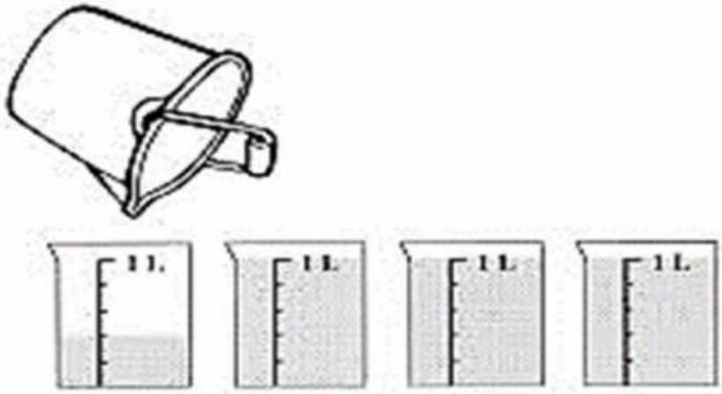

- ☐ 2060 毫升
- ☐ 3400 公升
- ☐ 3600 毫升

隨堂測驗 5: 下面全部量杯內，水的容量是多少?

- ☐ 2450 mL
- ☐ 2500 mL
- ☐ 2550 L

LIVEWORKSHEETS

隨堂測驗 6: 下面全部量杯內，全部水的容量是多少?

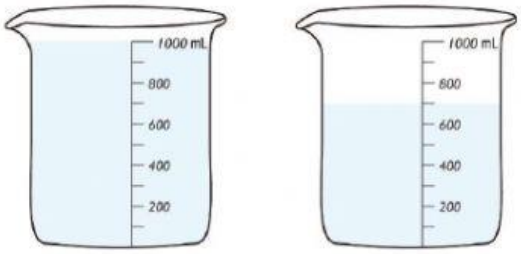

- ☐ 1600 mL
- ☐ 1650 mL
- ☐ 1700 mL

隨堂測驗 7: 請將下面表示相同容量的，兩兩連接起來

3050 毫升 ☐	☐ 3 公升 50 毫升
3105 毫升 ☐	☐ 3 公升 150 毫升
3150 毫升 ☐	☐ 3 公升 105 毫升

LIVEWORKSHEETS

隨堂測驗 8: 請將下面表示相同容量的，兩兩連接起來

3000 毫升	4 公升 30 毫升
4030 毫升	3 公升 700 毫升
3700 毫升	3 公升

隨堂測驗 9: 請依題目意思，勾選出正確答案

超市沐浴乳大瓶裝有 1 公升 800 毫升，
回家後，小玲分裝倒入小瓶有 500 毫升，
大瓶裝沐浴乳剩下多少毫升?

- ☐ 1800 mL — 500 mL
- ☐ 1800 mL ＋ 500 mL
- ☐ 1800 mL × 500 mL

LIVEWORKSHEETS

隨堂測驗 10: 請依題目意思, 勾選出正確答案

3 公升的牛奶和 2.4 公升的紅茶,

加在一起是多少公升奶茶?

- ☐ 3 公升 ＋ 24 公升
- ☐ 3 公升 ＋ 2.4 公升
- ☐ 3 公升 — 2.4 公升

隨堂測驗 11: 請依題目意思, 勾選出正確答案

1個水桶可裝水6公升800毫升，林爺爺澆花時用了2個水桶的水，林爺爺澆花共用了幾公升幾毫升的水？

- ☐ 6800 毫升 ＋ 6800 毫升
- ☐ 6800 毫升 ＋ 2
- ☐ 6800 毫升 ÷ 2

LIVEWORKSHEETS

隨堂測驗 12: 請依題目意思, 勾選出正確答案

大瓶裝奶茶有 5 公升 400 毫升,

小正倒入 600 毫升的小杯, 共可倒滿幾杯?

一杯的容量
600 毫升

- ☐ 5400 毫升 ＋ 600
- ☐ 54000 毫升 — 600
- ☐ 5400 毫升 ÷ 600

隨堂測驗 13: 請依題目意思, 勾選出正確答案

一桶水喝掉 500 毫升後,
還剩下 3 公升 500 毫升,
這桶水原有幾毫升?

原有幾毫升＝喝掉＋剩下

- ☐ 500 毫升 ＋ 3500 毫升
- ☐ 500 毫升 ＋ 350 毫升
- ☐ 500 毫升 — 3500 毫升

LIVEWORKSHEETS

隨堂測驗 14: 請依題目意思, 勾選出正確答案

- ☐ 100 毫升 ＋ 10 毫升
- ☐ 100 毫升 ＋ 100 毫升
- ☐ 100 毫升 × 10

隨堂測驗 15: 請依題目意思, 勾選出正確答案

把 32 公升的水, 平分裝到 8 個水桶裡, 每個水桶有多少公升的水?

一個水桶有多少公升的水?

- ☐ 32 公升 ＋ 8
- ☐ 32 公升 ÷ 8
- ☐ 320 公升 × 8

LIVEWORKSHEETS

隨堂測驗 16: 請依量杯的刻度，勾選出正確答案

（毫升）

- ☐ 40 毫升
- ☐ 45 毫升
- ☐ 50 毫升

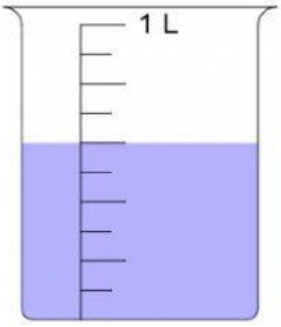

（公升）

- ☐ 0.7 公升
- ☐ 0.6 公升
- ☐ 0.5 公升

LIVEWORKSHEETS

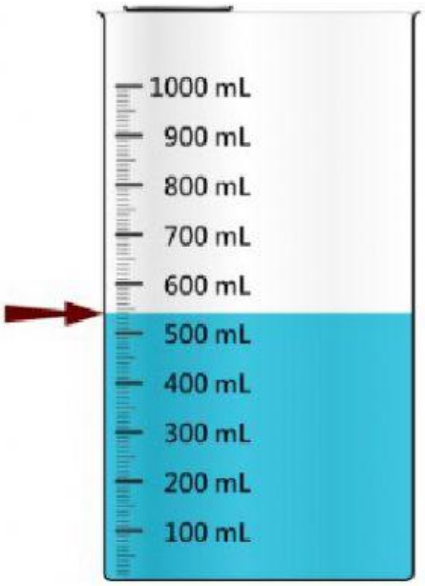

- ☐ 510 毫升
- ☐ 540 毫升
- ☐ 560 毫升

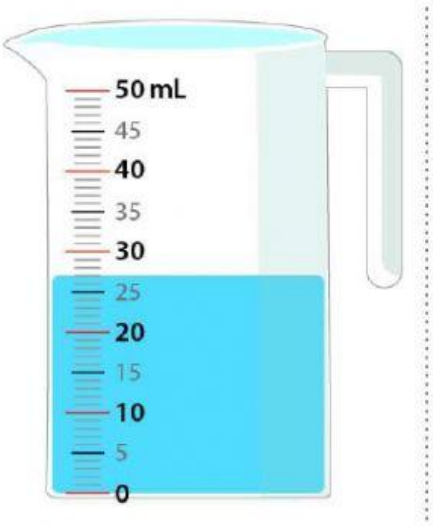

- ☐ 27 毫升
- ☐ 28 毫升
- ☐ 27 公升

LIVEWORKSHEETS