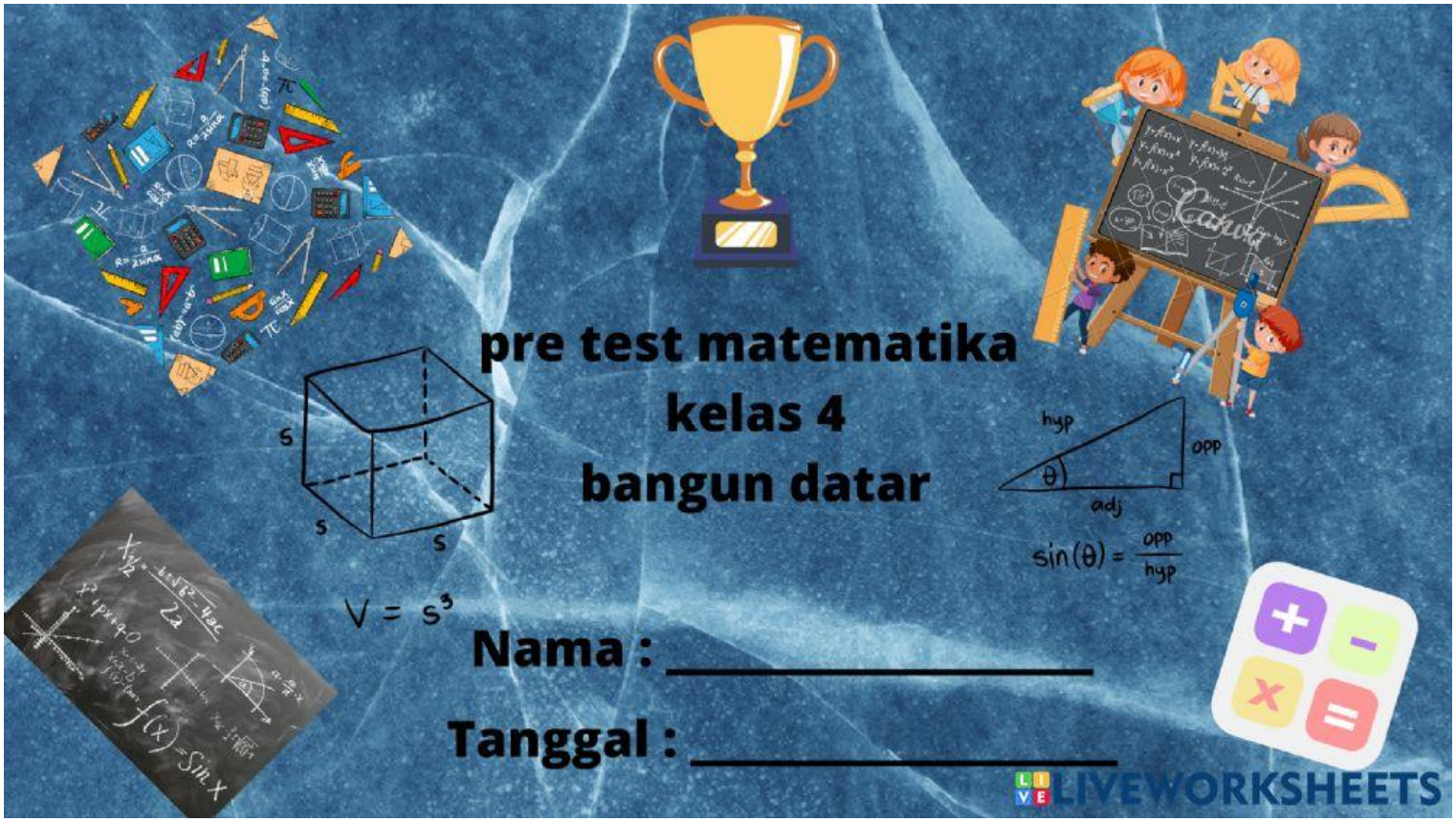
pre test matematika
kelas 4
bangun datar
s
s
s
V = s³
hyp
opp
adj
θ
sin(θ) = opp/hyp
Nama : _____
Tanggal : _____
LIVEWORKSHEETS

Nama bangun bangun datar ini :

a. segi tiga, kotak, belah ketupat, trapesium

b. trapesium, segi tiga. persegi, jajar genjang

c. Jajar genjang segi tiga kotak trapesium

LIVEWORKSHEETS

Rumus luas persegi adalah :

a. panjang + lebar

b. panjang x lebar

c. sisi x sisi

LIVEWORKSHEETS

Rumus keliling persegi adalah :

a. panjang + lebar

b. 2 panjang + 2 lebar

c. sisi + sisi + sisi + sisi

LIVEWORKSHEETS

Jika sebuah persegi memiliki panjang sisi 12 cm maka Luasnya adalah :

a. 24 cm^2 **a. 144 cm^2** **a. 48 cm^2**

LIVEWORKSHEETS

Jika sebuah persegi memiliki keliling 96 cm, maka berapa cm panjang sisinya ?

a. 26 cm

a. 14 cm

a. 24 cm

LIVEWORKSHEETS

Rumus luas dari persegi panjang adalah :

a. panjang + lebar

b. panjang x lebar

c. 2 panjang + 2 lebar

LIVEWORKSHEETS

Rumus keliling dari persegi panjang adalah :



a. 2 panjang + 2 lebar

b. panjang + lebar

c. panjang x lebar

LIVEWORKSHEETS

Jika Luas dari sebuah persegi panjang adalah 300 M2. Maka berapa meter panjang dan lebar nya ?

lebar : ..... meter?



panjang : ..... meter ?

a. panjang 15 m, lebar 10m

b. panjang 12 m, lebar 25 m

c. panjang 15 m, lebar 15 m

LIVEWORKSHEETS