Завдання для 2 класу

1. Пригадай будову мажорної та мінорної гами

Мажорна гама

ПТ	Т	Т	Т
ПТ	Т	Т	ПТ
Т	ПТ	Т	ПТ
ПТ	Т	Т	ПТ
Т	Т	ПТ	Т

Мінорна гама

Т	Т	ПТ	ПТ
ПТ	Т	Т	ПТ
ПТ	ПТ	ПТ	Т
Т	ПТ	ПТ	Т
Т	ПТ	Т	ПТ

2. Поєднай лініями тональності з ключовими знаками

До мажор | Фа мажор | Соль мажор | Ре мажор

ре мінор | мі мінор | ля мінор | сі мінор

3. Визнач тональність та вид мінору. Підпиши



4. Розстав тактові риски



LIVEWORKSHEETS

5. Знайди пару інтервалу – поєднай лініями

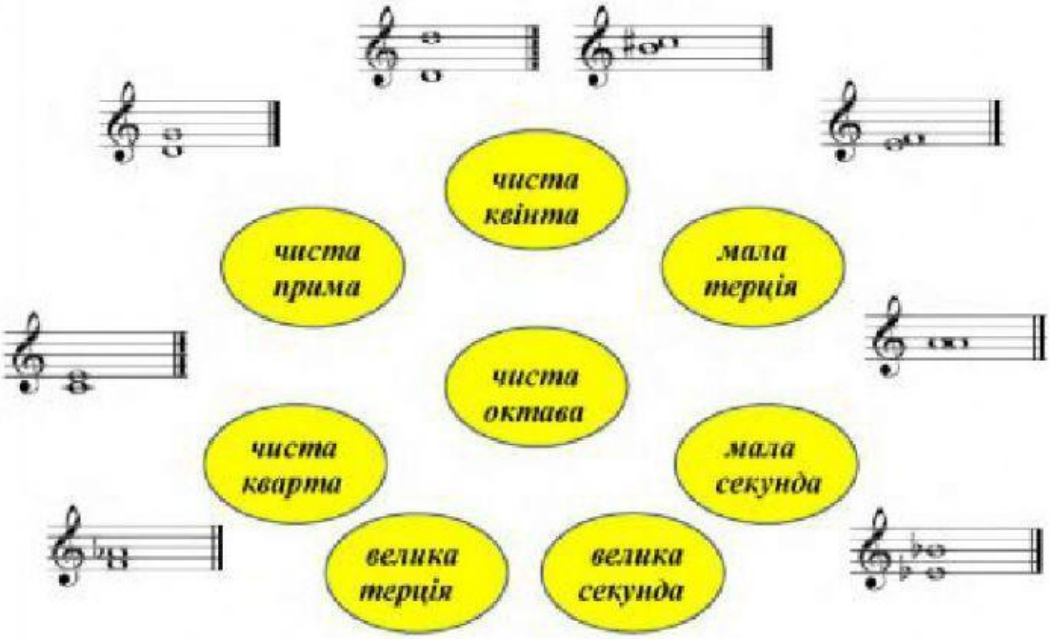

6. Додай бемолі там, де необхідно

♭ ♭ ♭ ♭ ♭ ♭ ♭

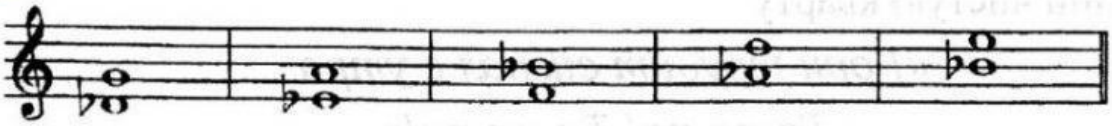

ч.4 ч.4 ч.4 ч.4 ч.4

7. Послухай мелодію та склади такти у правильному порядку





LIVEWORKSHEETS