LEMBAR JAWAB UJIAN SEKOLAH (US) PRAKTIK
TAHUN PELAJARAN 2021/2022

Nama : ……..
No. Ujian : ……..

JAWABAN

1. Carilah besar sudut pada bangun di bawah ini!

a.

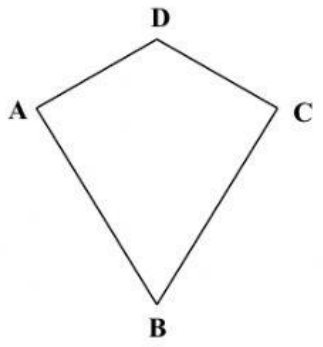

- < ABC = ……
  Jenis sudut : ……..
- < BCD = ……
  Jenis sudut : ……..
- < CDA = ……
  Jenis sudut : ……..
- < BAD = ……
  Jenis sudut : …….....

b.

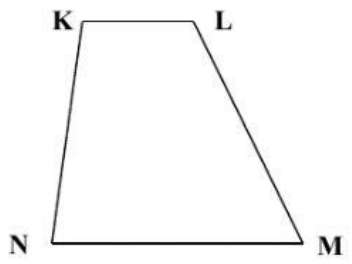

- < KNM = ……
  Jenis sudut : ……..
- < NML = ……
  Jenis sudut : ……..
- < KLM = ……
  Jenis sudut : ……..
- < NKL = ……
  Jenis sudut : …….....

c.

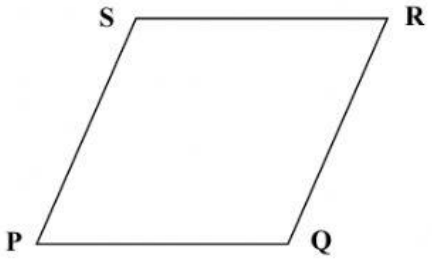

- < SPQ = ……
  Jenis sudut : ……..
- < PQR = ……
  Jenis sudut : ……..
- < QRS = ……
  Jenis sudut : ……..
- < PSR = ……
  Jenis sudut : …….....

2. Hitunglah volume dan luas permukaan bangun yang kalian amati!

……
……
……....
……
……
……....
……
……
……....
……
……
……....
……
……....

LIVEWORKSHEETS

LIVEWORKSHEETS