PHÒNG GD &ĐT ……..
TRƯỜNG TIỂU HỌC …….

KIỂM TRA CUỐI HỌC KÌ II NĂM HỌC
2021 - 2022
MÔN TOÁN - LỚP 2
(Thời gian làm bài 20 phút)

A.Trắc nghiệm:

Câu 1: Số điền vào chỗ chấm là: 1 giờ = …….. phút (M1- 0,5đ)

A.12
B. 20
C. 30
D. 60

Câu 2: Chiều dài của cái bàn khoảng 15……. Tên đơn vị cần điền vào chỗ chấm là: (M2 - 0,5 điểm)

A. cm
B. km
C. dm
D. m

Câu 3: Đúng điền Đ, Sai điền S: Số liền trước số 342 là: (M1 - 0,5 điểm)

A. 341
B. 343

Câu 4: Hãy khoanh vào trước chữ cái đáp án mà em cho là đúng
Giá trị của chữ số 8 trong 287 là: (M1 - 0,5 điểm)

A. 800
B. 8
C.80
D. 87

Câu 5: Nối mỗi số với cách đọc của số đó: (M1 - 0,5 điểm)

Tám trăm bảy mươi lăm	400
Năm trăm bảy mươi tám	401
Bốn trăm linh một	875
Bốn trăm	578

Câu 6:

a) (M3 - 0,5 điểm) Số hình tứ giác có trong hình vẽ là:…….hình.

LIVEWORKSHEETS

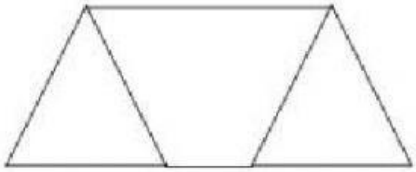

a) (M1 - 0,5 điểm) Hình nào là hình khối trụ? Hãy tô màu vào các hình đó.

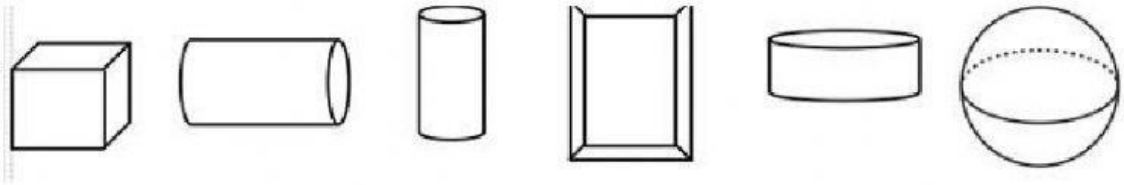

B. Tự luận:

Câu 7: Đặt tính rồi tính (M 2- 2đ)

56 + 28 = 362 + 245 = 71 - 36 = 206 – 123=

Câu 8: Số? (M2 - 1 điểm)

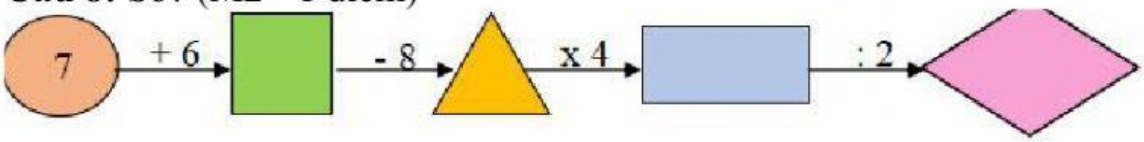

Câu 9: Mỗi chuồng thỏ có 5 con thỏ. Hỏi 4 chuồng như thế có bao nhiêu con thỏ? (M2 – 2 đ)

Câu 10: Quan sát biểu đồ và trả lời câu hỏi:

SỐ CHIM, BƯỚM, ONG TRONG VƯỜN HOA



a) Mỗi loại có bao nhiêu con? Điền chữ thích hợp vào ô trống: (M1 -0,5 điểm)

LIVEWORKSHEETS



b) Số con …… nhiều nhất? Số con …… ít nhất? (M2 - 0,5 đ)

c) (M3 – 0,5 đ)

Con bướm nhiều hơn con chim …… con.	Con chim ít hơn con ong …… con.

LIVEWORKSHEETS