ÁNGULOS ENTRE RECTAS PARALELAS CORTADAS POR UNA SECANTE

Observa la imágen luego indica la alternativa correcta.

① Los ángulos 4 y 5 son:

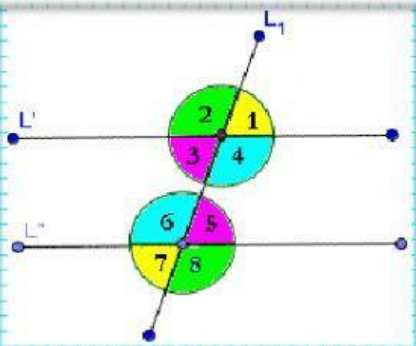

② Los ángulos 1 y 5 tienen su medida igual y son:

③ Los ángulos 1 y 3 son:

④ Los ángulos 3 y 5 son:

⑤ Los ángulos 2 y 8 son:

Observa y calcula los problemas propuestos e indica su respuesta:

① Halla el valor de "x"

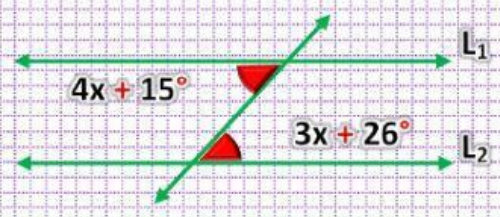

Respuesta: x = _____°

② ¿Cuánto mide x?

Respuesta: x = _____°

③ Halla el valor "c"

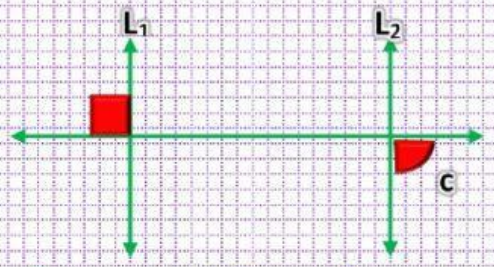

Respuesta: c = _____°

④ Halla el valor de "x"

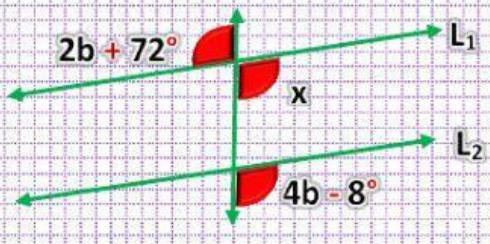

Respuesta: b = _____° x = _____°

LIVEWORKSHEETS
LIVEWORKSHEETS