ОБРАБОТКА НА ТАБЛИЧНИ ДАННИ

1. Кое от следните НЕ е основен елемент на електронната таблица?
А) клетка
Б) ред
В) диаграма
Г) колона

2. Можем да променим данните в дадена клетка на електронната таблица, ако тя е:
А) активна
Б) запълнена
В) разрешена
Г) празна

3. Можем да избираме области от:
А) съседни клетки
Б) колони и редове
В) несъседни клетки
Г) всички изброени

4. Кой от бутоните служи за вмъкване на линейна диаграма в програмата Microsoft Excel?

А) **Б)** **В)** **Г)**

5. Разгледайте дадената диаграма и посочете верния отговор. Времето в училище отнема от общото време:

А) $\frac{1}{4}$ **Б)** $\frac{1}{5}$ **В)** $\frac{1}{3}$ **Г)** $\frac{1}{2}$

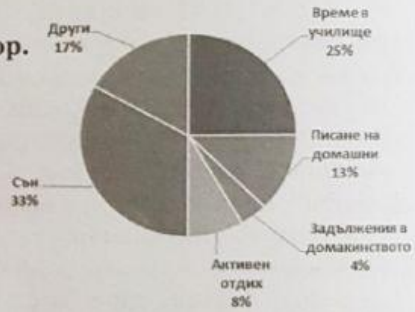

6. Разгледайте показаната диаграма и отговорете на въпроса. Кой е най-нисък и кой е най-висок съответно?
А) Иван и Мария
Б) Иван и Михаил
В) Анна и Мария
Г) Мария и Михаил

7. Разширението по подразбиране на файловете, създадени в Microsoft Excel, е:
А) .docx
Б) .xlsx
В) .pptx
Г) .pdf

8. Коя от показаните икони на програмата Microsoft Excel служи за завъртане на текст в клетката?

А) **Б)** **В)** **Г)**

LIVEWORKSHEETS

9. От кой раздел на прозореца Форматиране на клетки (Format Cells) в програмата Microsoft Excel се променя фонът на клетка?

А) Подравняване (Alignment)
Б) Шрифт (Font)
В) Граница (Border)
Г) Запълване (Fill)

10. Адресът на клетка се образува от:

А) номера на реда на клетката и името на колоната на клетката
Б) само номера на реда
В) само името на колоната
Г) номера на колоната на клетката и името на реда на клетката

11. На изображението по-долу е показана избрана област от съседни клетки.

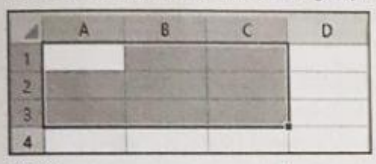

Кой от адресите отговаря на избраната област?

А) 1A:3C
Б) A3:C1
В) A1:C3
Г) A1:3:C1:3

12. Колко активни клетки може да имаме едновременно?

А) една
Б) две
В) три
Г) Няма ограничение за броя на активните клетки.

13. Кръговата диаграма е подходяща, когато:

А) искаме да покажем разпределение на части от едно цяло
Б) искаме да сравним данни
В) искаме да покажем изменение
Г) искаме да покажем йерархична връзка между данните

14. Кой вид диаграма е подходяща за илюстриране на данните за температурата на въздуха по часове в едно денонощие?

А) кръгова диаграма
Б) линейна диаграма
В) колонна диаграма
Г) йерархична диаграма

15. На изображението е показана:

А) точкова диаграма
Б) кръгова диаграма
В) йерархична диаграма
Г) колонна диаграма

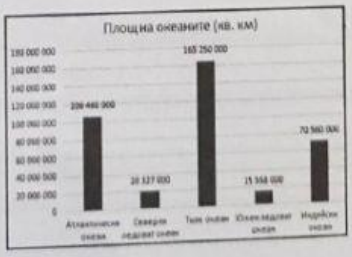

LIVEWORKSHEETS