1.7. Temata noslēguma darbs
“Kur sastopamies ar lieliem skaitļiem?”

Kā Tevi sauc?_____

1. Sakārto pēc lieluma, sākot ar lielāko skaitli!

2

12, 45, 87, 34, 91, 54, 17, 8, 99, 45

5

2. Izsaki citādi dotās mērvienības!

3 dm 1 cm = cm	1 m = dm = cm	1h 10 min.= min.
7 dm = cm	38 cm = dm cm	90 min.= h min.
8 dm 5 cm = cm	1dm 1 cm= cm	1h 5 min.= min.

3. Iekrāso pareizo atbildi – sver gramos vai kilogramos!

3

g kg	g kg	g kg
g kg	g kg	g kg

4. Risini! Raksti rezultātu un mērvienību!

4

40 kg + 31 kg = ____ 50 g + 14 g = ____

54 kg – 4 kg = ____ 100 g – 10 g = ____

5. Vēro shēmu un risini!

4

Par 2m

5 m < **?**

1.diena **2.diena**

Kopā?

Āpsis pirmajā dienā izraka ____ m garu eju.

Otrajā dienā viņš izraka par ____ m garāku eju nekā pirmajā dienā.

LIVEWORKSHEETS

Cik garu eju āpsis izraka divās dienās?

Divās dienās āpsis izraka m garu eju.

6. Uzzīmē, kā izvietosies pulksteņa rādītāji notikuma beigās! Pieraksti pulksteņa laiku!

2

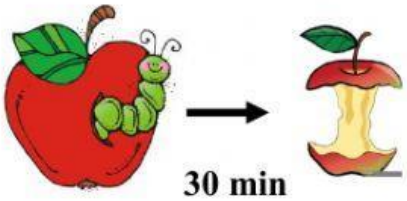

30 min



:



:

7. Ieraksti, cik rāda pulkstenis!

3



8.Cik te naudas? Saskaiti un ieraksti tabula atbildes!

5

Monētas	Monētu skaits	Aprēķini naudas daudzumu!	Cik centu?
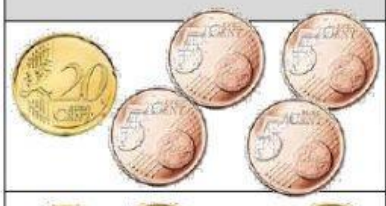	5	20+5+5+5+5=	

LIVEWORKSHEETS

Pašvērtējums! Novērtē, kā Tev veicās! Ieraksti atbilstošu uzdevuma numuru!

Vieglākais uzdevums _____
Uzdevums, kurš Tev patika _____
Grūtākais uzdevums _____
Interesants uzdevums _____
Garlaicīgs uzdevums _____

Kā tu šobrīd jūties? Apvelc!

Tu varēji iegūt darbā 40 punktus!

Tu ieguvi punktus!

Apguves līmenis –

Sācis apgūt
Turpina apgūt
Apguvis
Apguvis padziļināti

Paldies par darbu!

LIVEWORKSHEETS