ใบงานที่ 7 เรื่อง การบวกจำนวนเต็มลบด้วยจำนวนเต็มบวก
หน่วยที่ 1 แผนการจัดการเรียนรู้ที่ 7 เรื่อง การบวกจำนวนเต็มลบด้วยจำนวนเต็มบวก
รายวิชาคณิตศาสตร์ 1 รหัสวิชา ค 21101 ภาคเรียนที่ 1ชั้นมัธยมศึกษาปีที่ 1

ชื่อ-นามสกุล ..... **ชั้น** ..... **เลขที่** .....

จุดประสงค์การเรียนรู้

1. อธิบายการบวกจำนวนเต็มลบกับจำนวนเต็มบวกได้
2. แสดงวิธีหาคำตอบของการบวกจำนวนเต็มลบด้วยจำนวนเต็มบวกได้

คำชี้แจง จงหาผลบวกของจำนวนเต็มต่อไปนี้โดยใช้เส้นจำนวน (ข้อละ 1 คะแนน)

1. (-2) + 6 = ...

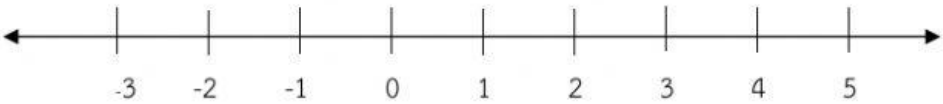

ผลลัพธ์ คือ .....

2. (-5) + 2 = ...

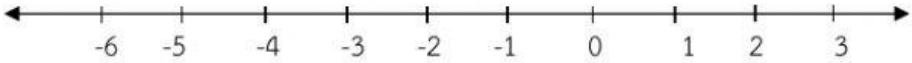

ผลลัพธ์ คือ .....

3. (-9) + 6 = ...

ผลลัพธ์ คือ .....

4. (-7) + 5 = ...



ผลลัพธ์ คือ .....

5. (-3) + 8 = ...



ผลลัพธ์ คือ .....

คำชี้แจง จงเติมคำตอบลงในช่องว่างให้ถูกต้องสมบูรณ์ (ข้อละ 1 คะแนน)

1. (-24) + 15 = ...
2. (-33) + 17 = ...
3. (-14) + 5 = ...
4. (-7) + 7 = ...
5. (-25) + 14 = ...

LIVEWORKSHEETS

6. (-32) + 35 = ...

7. (-13) + 9 = ...

8. (-11) + 22 = ...

9. (-28) + 67 = ...

10. (-74) + 57 = ...

LIVEWORKSHEETS