"Calculo el área del triángulo mentalmente"

Instrucción: intenta calcular el área de los siguientes triángulos de manera mental, recuerda multiplicar la base por la altura y dividirlo entre 2 para obtener el resultado.

Fórmula:

$$A = \frac{b \times h}{2}$$

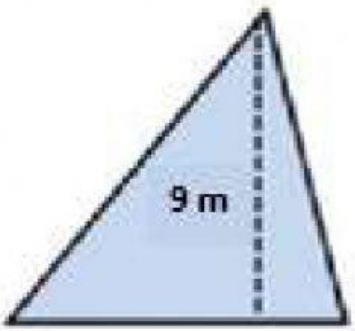

A =

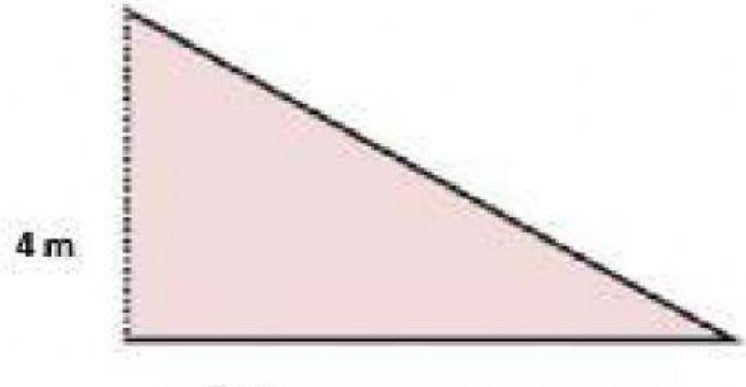

A =

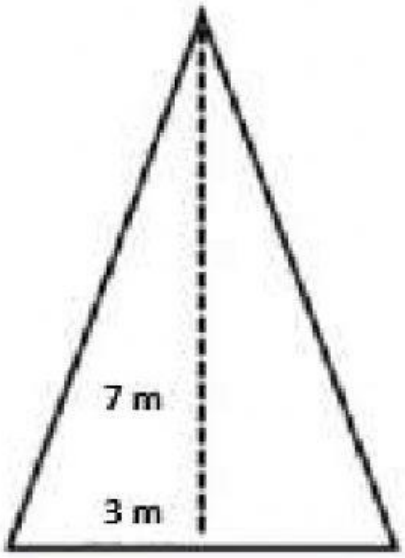

A =

LIVEWORKSHEETS