Какво научих по МАТЕМАТИКА във 2.клас

1 зад. Запиши с цифри числата: трийсет и седем, седемдесет и три, сто, шейсет.

2 зад. Сравни и постави знаците >, = , <

А) 45 ☐ 54 Б) 100 ☐ 99 В) 10 ☐ 100

3 зад. Пресметни:

45 + 3 = ___	83 – 9 = ___	6.9 = ___
12 + 56 = ___	92 – 37 = ___	1.8 = ___
78 – 5 = ____	28 + 72 = ___	63:9= ___
69 – 39 = ___	100 – 58 = ___	90:10 = ___
75 + 8= ____	7.8 = ____	6:6 = ____
35 + 49 = ___	10.10 = ____	72:8 = ___

4 зад. Пресметни числовите изрази. Можеш да използваш съдружителното свойство на умножението.

А) 7.3.2 = ☐

Б) (12 + 69) :9 = ☐

В) 5 + 3.9 = ☐

5 зад. Намери неизвестното число.

x+46 = 81 6.a=54 a+34=7.9

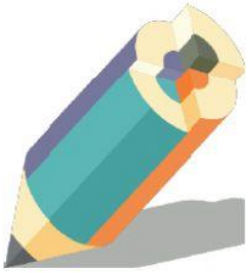

Й.Първанова

6 зад. Едната страна на правоъгълник е 6 дм. Намери другата му страна. Намери обиколката на правоъгълника.

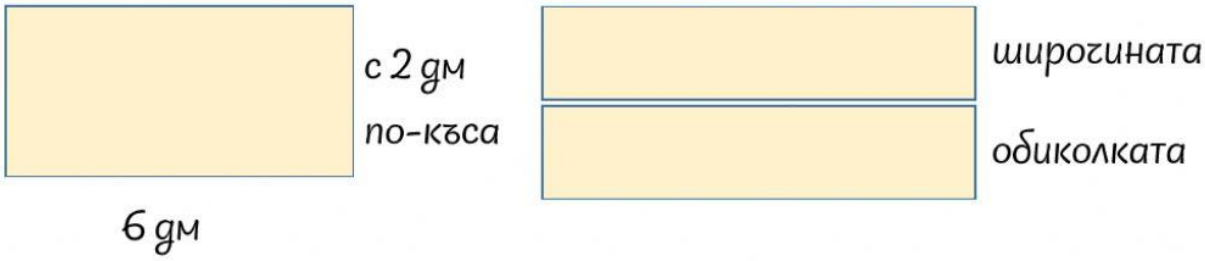

7 зад. На екскурзия до водопада отишли 27 момчета и 3 пъти по-малко момичета. Колко деца общо са отишли на екскурзия до водопада? (пресметни с числов израз)

8 зад. Определи вида на триъгълниците според страните.

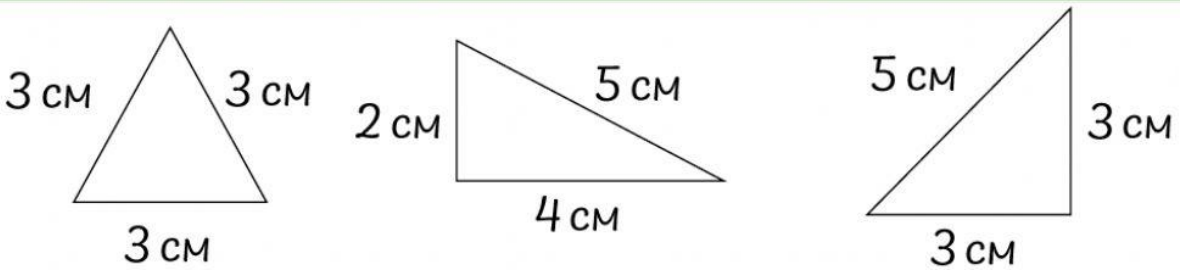

Й.Първанова