Điểm

**ĐỀ KIỂM TRA CHẤT LƯỢNG CUỐI HỌC KÌ 2**

Môn: **TOÁN 2 – ĐỀ 1** Thời gian làm bài: 35 phút

Họ và tên: ……..Lớp: ……..….

**Phần I: Trắc nghiệm (4 điểm)** *Khoanh vào chữ cái đặt trước câu trả lời đúng*

**Câu 1(0.5đ):** Số gồm 9 trăm, 7 chục được viết là: **(M1)**

A. 970 B. 97 C. 907 D. 790

**Câu 2(0.5đ):** Các số: 672 ; 805 ; 599 ; 689 được sắp xếp theo thứ tự từ lớn đến bé là: **(M1)**

A. 805 ; 689 ; 599 ; 672.
B. 805 ; 599 ; 689 ; 672.
C. 805 ; 689 ; 672 ; 599.
D. 599 ; 672; 682; 805.

**Câu 3(0.5đ):** Tổng của 255 và 204 là: **(M1)**

A. 459 B. 671 C. 771 D. 883

**Câu 4(0.5đ):** Số thích hợp điền vào chỗ trống là **(M2)**

A. 8 và 41 B. 15 và 50 C. 15 và 40 D. 8 và 42

**Câu 5(0.5đ):** Kết quả của phép tính: 2 × 7 = ? **(M1)**

A. 3 B. 25 C. 11 D. 14

**Câu 6(0.5đ):** Cầu Vĩnh Tuy dài khoảng: **(M2)**

A. 3cm B. 3dm C. 3m D. 3km

**Câu 7(0.5đ):** Ở đằng xa chúng ta nhìn thấy đường viền của một tòa lâu đài (M3)

Hình nào dưới đây KHÔNG thể là một phần của tòa lâu đài:

A. B. C. D.


LIVEWORKSHEETS

**Câu 8(0.5đ):** Bố chở anh em Minh đi chơi ở trung tâm thương mại Times City. Ba bố con bắt đầu đi lúc 18 giờ 15 phút và đến Times City lúc 18 giờ 45 phút. Vậy thời gian ba bố con đi từ nhà đến trung tâm thương mại là: **(M3)**

A. 15 phút

B. 45 phút

C. 30 phút

D. 60 phút

**Phần II: TỰ LUẬN (6 điểm)**

**Bài 1**: Đặt tính rồi tính (1 điểm) (M1)

a. 727 - 135 b. 25 + 281 c. 173 + 764 d. 255 - 94



**Bài 2**: (1 điểm) (M1)

Có 15 chiếc kẹo, chia đều cho ba bạn. Ta có phép chia:

☐ : ☐ = ☐

**Bài 3**: (1 điểm): Quan sát biểu đồ tranh và trả lời các câu hỏi: (M1)

**SỐ CÁ MỖI BẠN CÂU ĐƯỢC TRONG BUỔI CHIỀU CHỦ NHẬT**

| | |
|---|---|
| Bạn Trường | |
| Bạn Tùng | |
| Bạn Phương | |



LIVEWORKSHEETS

a) Bạn Trường câu được ……. con cá.

b) Bạn …….. câu được nhiều cá nhất. Bạn …….. câu được ít cá nhất.

c) Ba bạn câu được tất cả …….. con cá.

**Bài 4:** (2 điểm) (M2) Nhân dịp 30/4 – 1/5, cửa hàng Thế giới di động tổ chức chương trình siêu khuyến mãi. Hai mặt hàng bán chạy nhất đó là điều hòa và tủ lạnh. Biết cửa hàng bán được 180 chiếc tủ lạnh và số điều hòa bán được nhiều hơn số tủ lạnh là 120 chiếc. Hỏi cửa hàng bán được bao nhiêu chiếc điều hòa?

**Bài giải**

**Bài 5:** (1 điểm) (M3) a. Điền số thích hợp vào chỗ trống:

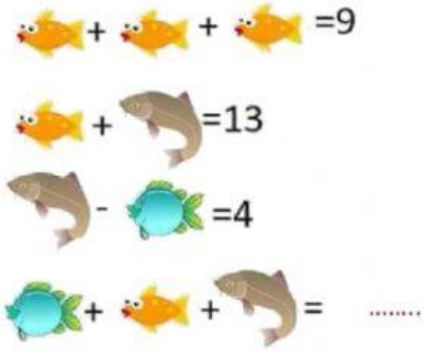


b. Hình bên có:

……. khối trụ

……. khối cầu

…….khối hộp chữ nhật.

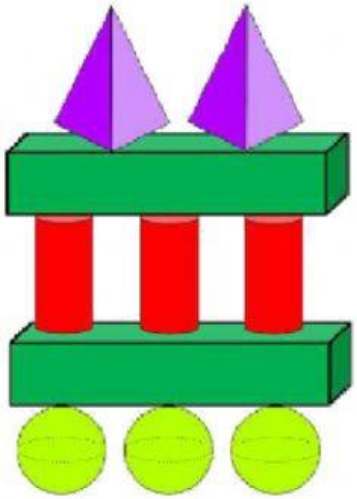



LIVEWORKSHEETS