Ángulos suplementarios

Encuentra cúal es el Angulo que fálta.

Ejemplo:

El ángulo que falta es:

180 - 105 = **75°**

1.

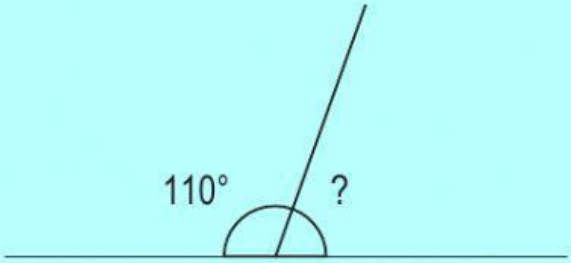

El ángulo que falta es:

2.

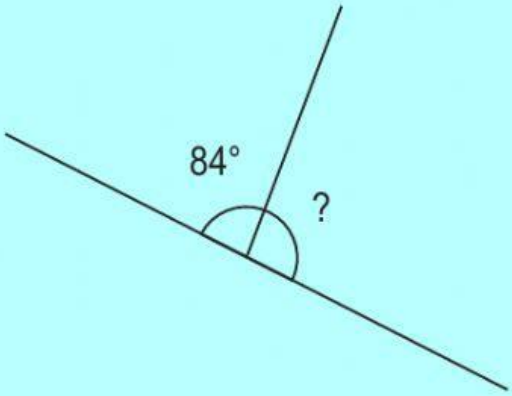

El ángulo que falta es

:

3.

El ángulo que falta es:

4.

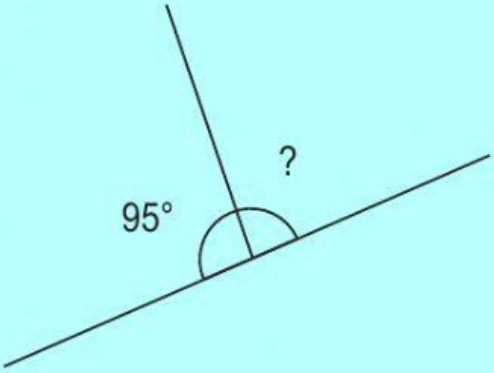

El ángulo que falta es:

5.

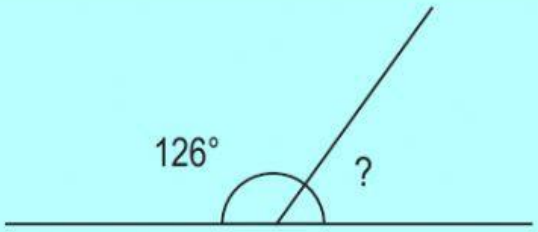

El ángulo que falta es:

6.

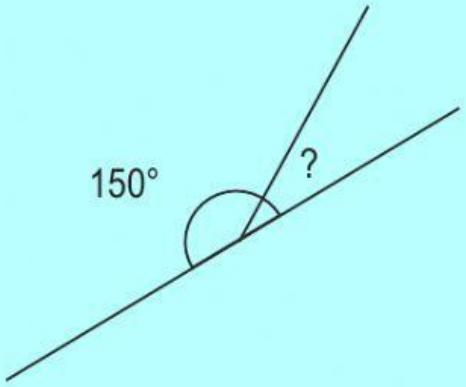

El ángulo que falta es:

7.

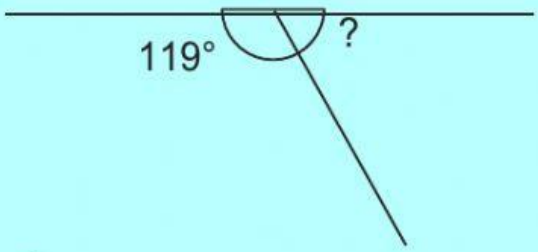

El ángulo que falta es:

8.

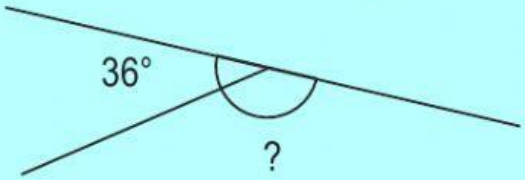

El ángulo que falta es:

9.

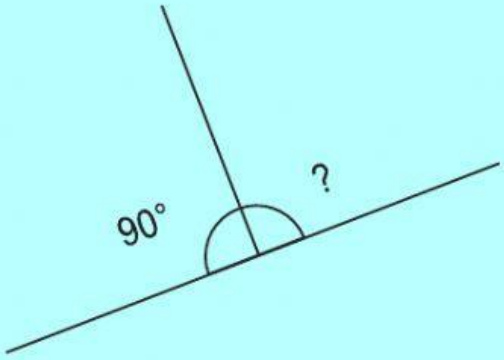

El ángulo que falta es:

10.



El ángulo que falta es:

Todas estas parejas de ángulos se llaman ángulos

porque juntos miden

grados.