10.1. Erdviniai kūnai

Iš sąrašo pasirink erdvinio kūno pavadinimą.

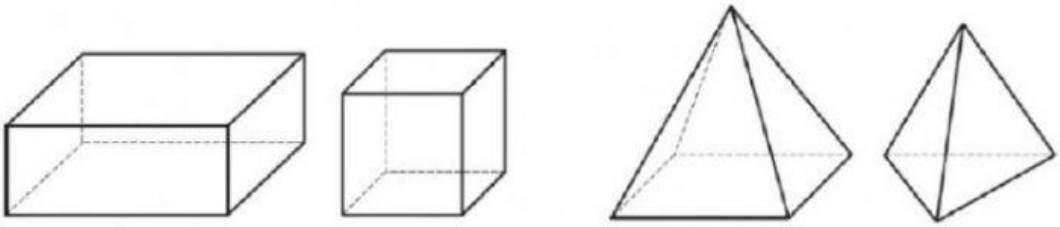

Sujunk erdvinį kūną su jo pavadinimu

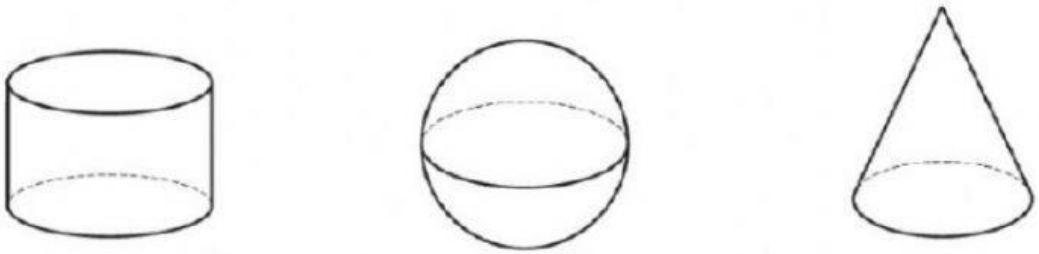

Rutulys	Kūgis	Ritinys

Pasirink teisingą atsakymą (atsakymus):

Pasirinkite erdvinį kūną, kuris yra briaunainis

A. *Kūgis*
B. *Ritinys*
C. *Piramidė*
D. *Kubas*

LIVEWORKSHEETS

Pasirinkite erdvinį kūną, kuris yra sukinys

A. *Kūgis*
B. *Ritinys*
C. *Piramidė*
D. *Stačiakampis gretasienis*

Į laukelius įrašyk reikiamus skaičius:

Kubas turi:

Sienas ☐

Briaunas ☐

Viršūnes ☐

Užrašykite, kokie yra pavaizduoto stačiakampio gretasienio matmenys.

a)

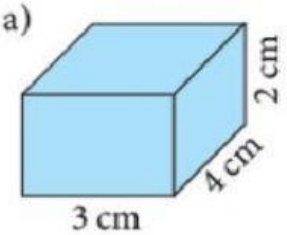

Ilgis ☐ cm,
plotis ☐ cm,
aukštis ☐ cm;

b)

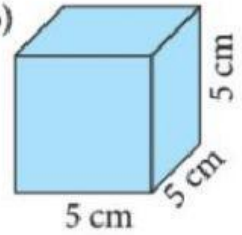

ilgis ☐ cm,
plotis ☐ cm,
aukštis ☐ cm.

Nutempk teisingą atsakymą prie uždavinio sąlygos

Kubo, kurio briauna lygi 1 cm, visų briaunų suma lygi	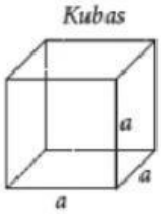	1 cm^2
Kubo, kurio briauna lygi 1 cm, vienos sienos plotas lygus		6 cm^2
Kubo, kurio briauna lygi 1 cm, viso paviršiau plotas lygus		6 cm

LIVEWORKSHEETS