Підсумуємо вивчене з теми «Площа»

Гра «Правда-неправда».

Розміри ігрового майданчика — 25х20 м

Чи правда, що:

- ☐ його площа становить 5 а
- ☐ його площа дорівнює половині гектара
- ☐ його площа стане удвічі більша, якщо довжину збільшити на 20 м
- ☐ його площа зменшиться на 50 м^2, якщо ширину зменшити на 2 м
- ☐ якщо розміри пісочниці — 3х3 м, то їй не вистачає 1 м^2, щоб становити п'ятдесяту частину майданчика

Яка площа ділянки з

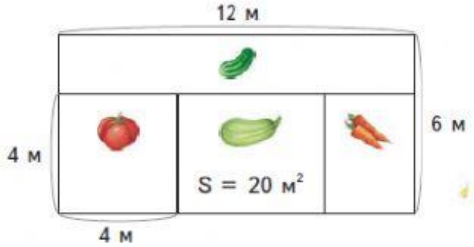

огірками?
помідорами?
морквою?

$S_{помідори}$ = м^2

$S_{огірки}$ = м^2

$S_{морква}$ = м^2

Як ще обчислення треба провести, щоб обчислити

площу моркви:

площу огірків:

Знайти площу і периметр кожної із двох фігур.

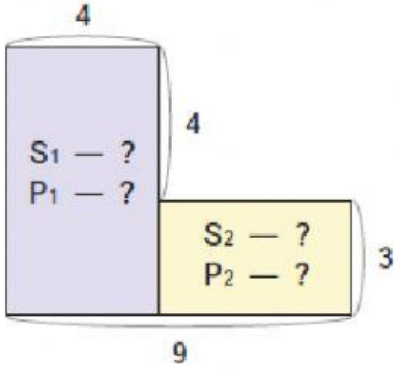

P_1 = = м

S_1 = = м^2

P_2 = = м

S_2 = = м^2

Обчисли вирази

490 • 930 – 20 792 : 23 • 503 = ...

		x	4	9	0					2	0	7	9	2	2	3				x							
			9	3	0																5	0	3				
+					0	0			+										+								
					0	0								0													
-																											

LIVEWORKSHEETS

490 • (930 – 20 792 : 23) • 503= . . . . . .

	2	0	7	9	2	2	3			-	9	3	0			x	4	9	0			x				
																							5	0	3	
															+						+					

ϒ Задача

Із двох кінців села опівдні одночасно назустріч один одному виїхали два листоноші на велосипедах. Відстань між ними в цей час була 8 км 400 м. Один листоноша їхав зі швидкістю 150 м/хв. Із якою швидкістю їхав другий листоноша

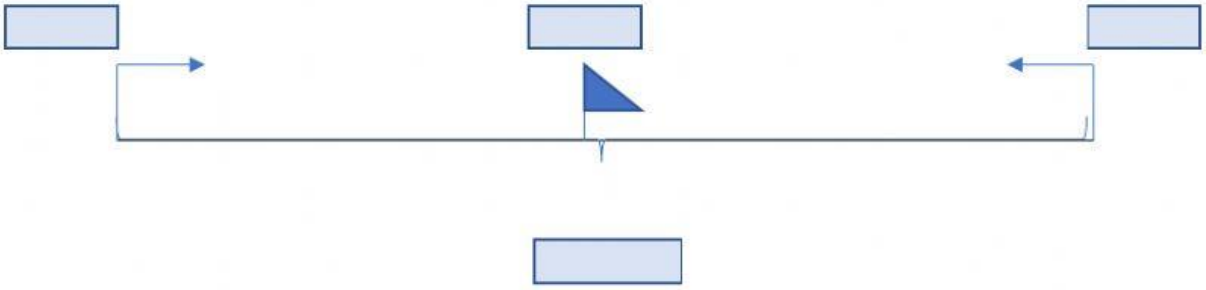

1)……(……..) …… ;

2)……(……..) …… ;

3)……(……..) …… ;

Відповідь: ……

Оціни себе:

Що сьогодні вдалося легко ?

Що було виконувати важко?

Які є запитання?

LIVEWORKSHEETS