DIVISIONE PER RAGGRUPPARE

NUMERI

1 **Leggi, raggruppa e rispondi; poi calcola.**

In palestra ci sono 18 bambini. La maestra forma squadre da 6 bambini ciascuna.



- Quanti bambini in tutto? .....
- Quanti bambini in ogni squadra? .....
- Quante squadre forma la maestra? .....

18 : 6 = ...

2 **Raggruppa, scrivi l'operazione e rispondi.**

- Il gelataio ha 20 fragole; decora ogni coppa con 5 fragole.
  Quante coppe decora?



Operazione ..... = ...

Risposta .....

- Alice ha 24 perle; usa 8 perle per ogni braccialetto.
  Quanti braccialetti realizza?

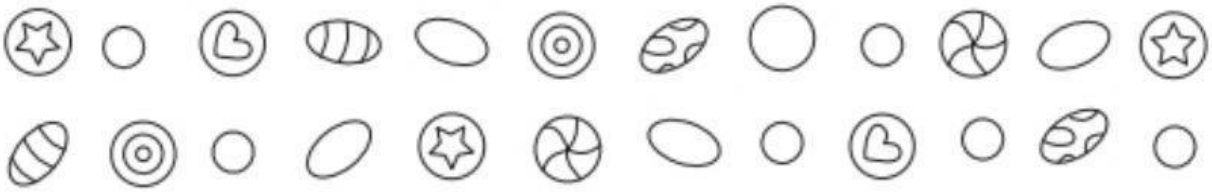

Operazione ..... = ...

LIVEWORKSHEETS