ВИКОНАЙ ЗАВДАННЯ КВЕСТУ

Склади ключове слово з літер,
що позначають правильні відповіді
до запропонованих завдань.
(6 завдань – 6 літер)

1 Розв'яжи задачу за допомогою таблиці.

Сергій, Остап, Назар і Дмитро відвідують гурток робототехніки. Роботи Дмитра і Остапа не схожі на домашніх улюбленців. Роботи Назара і Остапа не мають пропелера. Робот Дмитра може крокувати. Якого робота зробив Остап?

а) п) ж) т)

Сергій				
Остап				
Назар				
Дмитро				

2 Лаксик пробіг від дому до парку дистанцію, довжина якої не менше 600 м і не більше 630 м. Яким маршрутом пробіг лаксик?

м) дім – ринок – школа – банк – парк;
о) дім – музей – школа – парк;
у) дім – ринок – озеро – банк – парк;
б) дім – ринок – школа – музей – парк.

3 Із 30 учнів класу гурток моделювання відвідують 13 учнів, гурток програмування – 9 учнів, 10 учнів не відвідують жодного гуртка. Скільки учнів відвідують обидва гуртки?

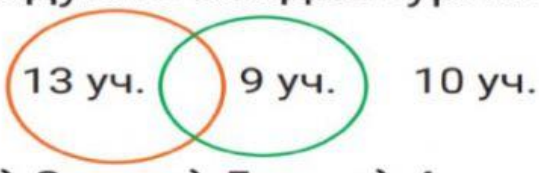

н) 3 **є)** 2 **и)** 5 **с)** 4

LIVEWORKSHEETS

4 Для моделювання каркаса кубика потрібно з'єднати 12 сірників. Скільки сірників знадобиться, щоб створити зображену фігуру?

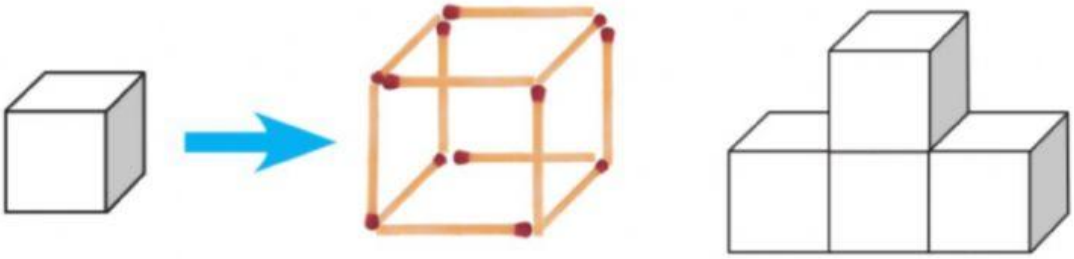

і) 48 **к)** 36 **й)** 40 **ч)** 42

5 Робот рухається вздовж пунктирної лінії по середині коридору, розміри якого вказані на схемі. Скільки метрів пройде робот від початку до кінця коридору?

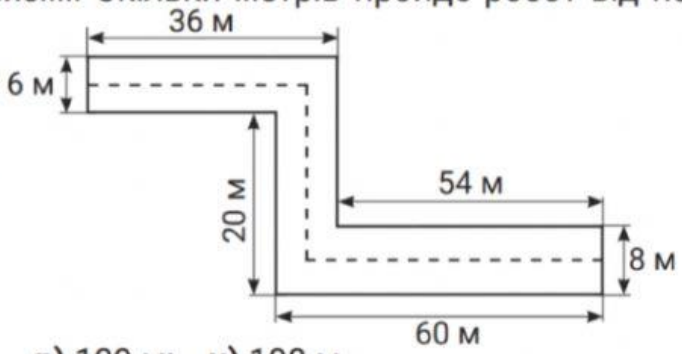

а) 110 м; **і)** 116 м; **р)** 109 м; **н)** 108 м.

6 Які об'єкти відносяться до матеріальних моделей?
т) макет будинку; **в)** сценарій кінофільму; **е)** діаграма.

LIVEWORKSHEETS