а) = ☐ 31 + 4 =

б) 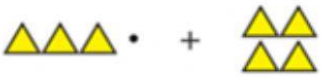 = ☐ 31 + 40 =

в)  = ☐

г) = ☐

д) = ☐

е) 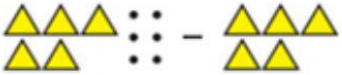 = ☐

2

90 − 20 =	73 − 23 =	82 − 20 =
14 + 25 =	65 − 60 =	82 − 2 =
86 − 34 =	58 − 58 =	64 + 30 =
70 + 16 =	49 + 0 =	64 + 3 =

3 Склади всі можливі рівності з чисел:

а) 25, 12, 37; б) 40, 8, 48.

4 З однієї грядки зібрали 27 кг полуниць, а з другої на 15 кг менше. Скільки полуниць зібрали з другої грядки? Скільки полуниць зібрали з двох грядок?

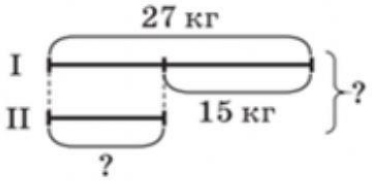

5 Придумай і розв'яжи задачі.

1)

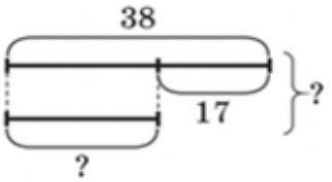

2)

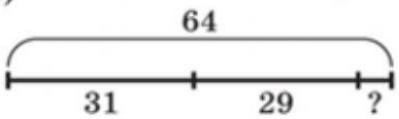

6

а)

машина − X = шина

X = ☐ − ☐

X = ☐

б)

X − сто = лиця

X = ☐ + ☐

X = ☐

LIVEWORKSHEETS