LEMBAR KERJA PESERTA DIDIK

Statistika

Sekolah Dasar

LIVEWORKSHEETS

NILAI :

LEMBAR KERJA PESERTA DIDIK (LKPD)

MATERI : STATISTIKA
KELAS : V (lima)
SEMESTER : GENAP

Santira
universitas Sultan Ageng Tirtayasa
SDN Cisangku

NAMA :

KELAS : V

berdoalah sebelum dan sesudah mengerjakan

PENYAJIAN DATA

Agar kamu paham dengan sajian data,amati video berikut

LIVEWORKSHEETS

Pasangkam diagram tersebut sesuai dengan nama bentuk diagram (Nomor 1-3)

Garis

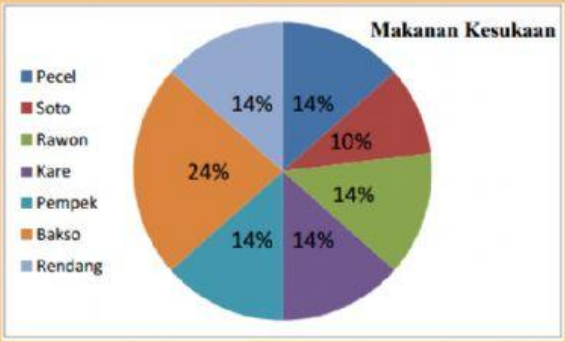

Batang

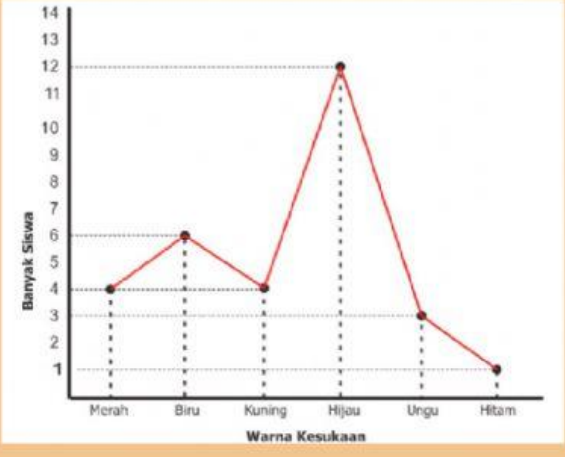

Lingkaran

LIVEWORKSHEETS

Perhatikan diagram dibawah ini untuk soal nomor 4-6

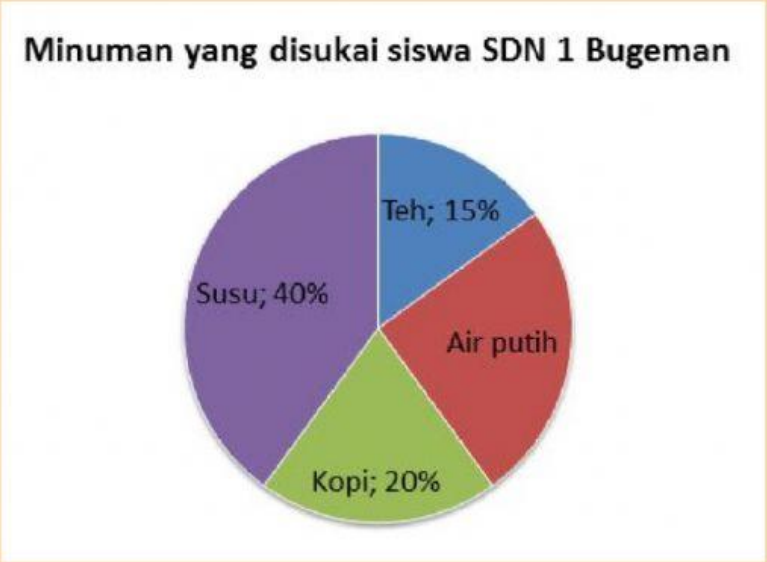

Berapa banyak siswa yang menyukai air putih?

a. 15%
b 25%
c. 20%
d. 30%

Minum apakah yang paling disukai siswa ?

a. Kopi
b. Air Putih
c. Teh
d. Susu

Jika jumlah siswa SDN 1 Bugeman terdapat 200 siswa makaberapakah jumlah siswa yang menyukai kopi ?

a. 40
b. 30
c. 20
d. 10

LIVEWORKSHEETS

Perhatikan diagram dibawah ini untuk soal nomor 7-9

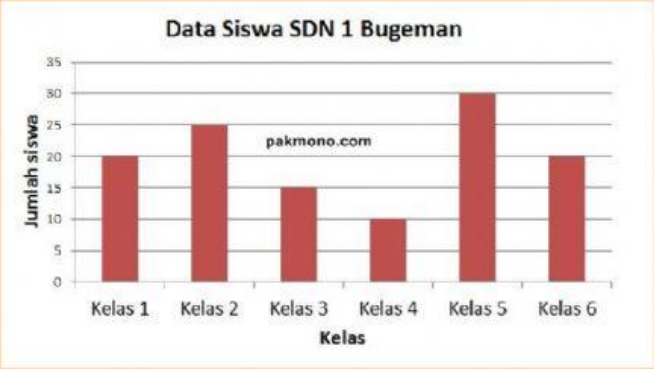

Kelas yang memiliki jumlah siswa paling sedikit ?

a. Kelas 1

b. Kelas 2

c. Kelas 3

d. Kelas 4

Kelas yang memiliki jumlah siswa paling banyak ?

a. Kelas 5

b. Kelas 2

c. Kelas 4

d. Kelas 6

Berapa jumlah siswa kelas 3 dan kelas 5 ?

a. Kelas 30

b. Kelas 50

c. Kelas 45

d. Kelas 40

LIVEWORKSHEETS

Perhatikan diagram dibawah ini untuk soal nomor 10-12

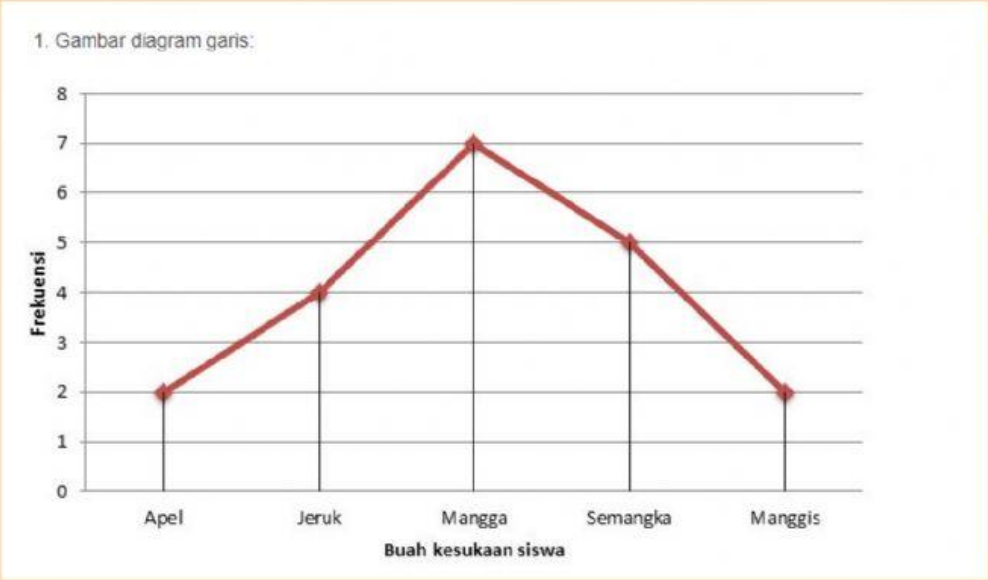

Isilah pertanyaan dibawah ini dengan benar!

Berapa banyak siswa yang menyukai buah apel dan manggis ?

Buah apakah yang paling banyak disukai siswa?

dilihat dari data diatas berapakah jumlah seluruh siswa ?

LIVEWORKSHEETS

Tariklah bentuk diagram sesuai dengan definisi.(soal nomor 13-16)

Penyajian data dengan memakai gambar berbentuk lingkaran		Diagram Batang
Penyajian data berupa bilangan kedalam bentuk gambar		Diagram Lingkaran
diagram penyajian datanya memakai persegi panjang atau batang-batang		Diagram Garis
diagram penyajian datanya digambarkan dengan garis		Diagram Gambar

TERIMA KASIH

LIVEWORKSHEETS