Geometría y orientación en el plano

1º Unos alumnos de 3º con un rap nos enseñan rectas y ángulos.

https://www.youtube.com/watch?v=QJ-NtBtNadc

2º Ahora a practicar:

Rectas, semirrectas y segmentos

1. Responde arrastrando la palabra adecuada

Una _____ es una línea compuesta por infinitos puntos que se suceden en una misma dirección.

Un _____ es la parte de una recta comprendida entre dos puntos.

Una _____ es una de las dos partes en las que un punto divide una recta.

Semirrecta | Segmento | Recta

Elementos de un triángulo

2. Arrastra los elementos de un ángulo al lugar que corresponde.

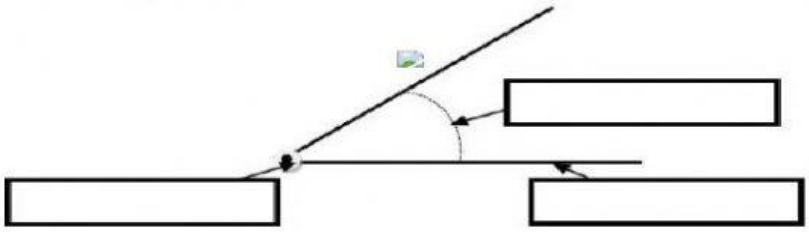

Vértice | Abertura | Lado

Traslación

3. Observando la figura enmarcada y contesta si son o no traslaciones las siguientes figuras (en minúscula: si – no).

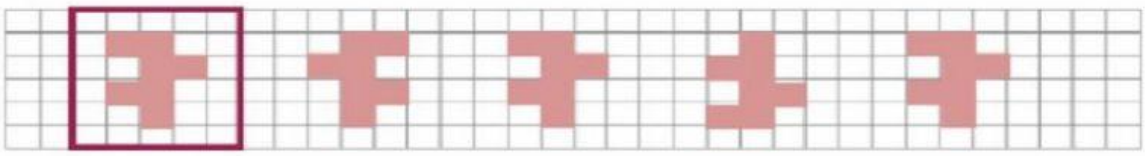

Simetría

4. ¿Son simétricas las siguientes figuras? (responde si-no).

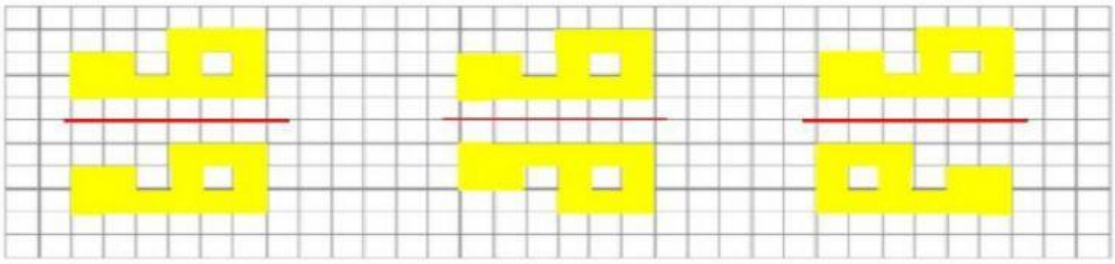

Rectas paralelas, secantes y perpendiculares

5. Escribe si son paralelas, perpendiculares o secantes las siguientes rectas (en minúscula: paralelas, perpendiculares o secantes).



Ángulos

6. Indica de qué tipo son estos ángulos según su abertura.