LKS Tematik Tema 6

Kelas III

Muatan Matematika

Nama:

Diagram Gambar

بسم الله الرحمن الرحيم

Isilah dengan tepat sesuai dengan data yang disajikan!

Berikut adalah data hewan peliharaan David!

Kepiting	
Cumi-cumi	
Bintang laut	
Ikan	

1. Cumi-cumi yang dimiliki David ada ____ ekor.
2. David memiliki ____ bintang laut.
3. Ikan yang David miliki di akuariumnya ada ____ ekor
4. Ada ____ kepiting di dalam akurium David.
5. Manakah yang lebih banyak, ikan atau kepiting? _____

   Berapa selisih/bedanya? ____
6. Manakah peliharaan David yang lebih sedikit? bintang laut atau kepiting? _____

   Berapa selisih/bedanya?____

LIVEWORKSHEETS
LIVEWORKSHEETS

Amatilah diagram berikut untuk menjawab soal nomor 7–9!

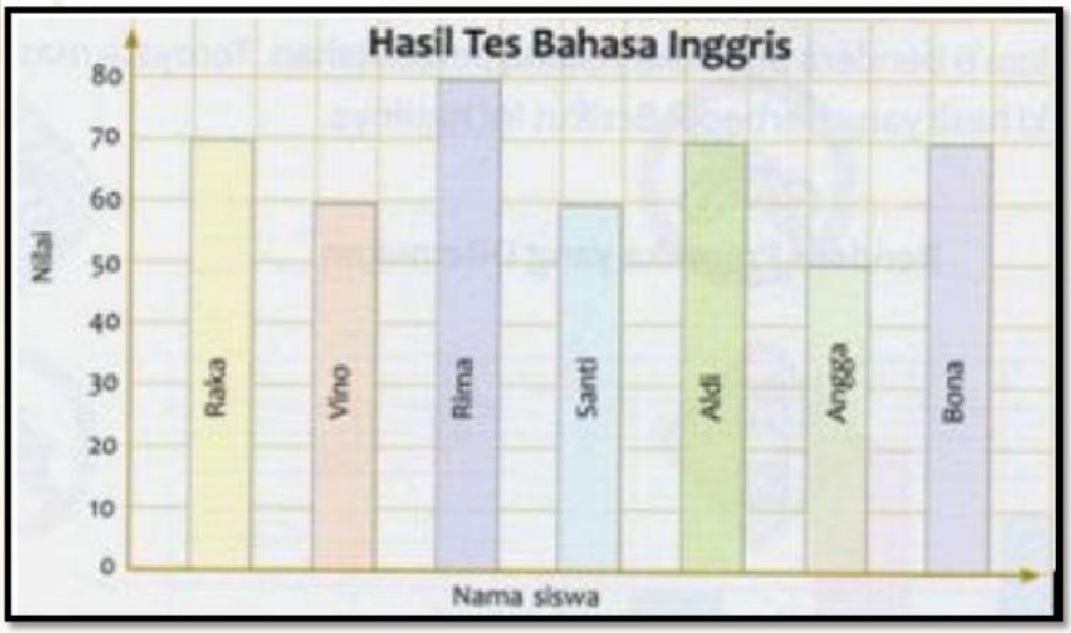

7. Siswa yang mendapat nilai 80 adalah . . . .

A. Raka

B. Rima

C. Vino

D. Aldi

8. Siswa yang mendapat nilai 70 ada . . . orang.

A. satu

B. dua

C. tiga

D. empat

9. Nilai tes Bahasa Inggrisnya Angga adalah . . . .

A. 80

B. 70

C. 60

D. 50

LIVEWORKSHEETS
LIVEWORKSHEETS

Perhatikan diagram berikut untuk menjawab soal nomor 10–14!

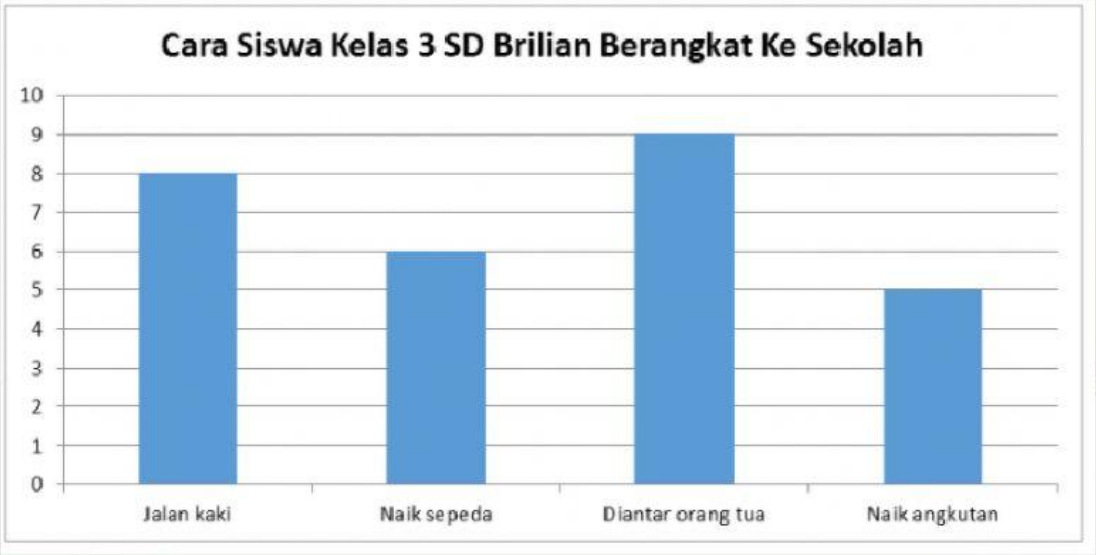

10. Jumlah siswa yang berangkat sekolah dengan sepeda ada . . . orang.

    A. 5

    B. 6

    C. 8

    D. 10

11. Ada . . . siswa yang berangkat sekolah dengan berjalan kaki.

    A. 5

    B. 6

    C. 8

    D. 10

12. Cara yang dipakai siswa untuk berangkat ke sekolah paling banyak adalah dengan cara . . . .

    A. naik sepeda

    B. berjalan kaki

    C. naik angkutan umum

    D. diantar orang tua

13. Selisih siswa yang berangkat sekolah dengan menaiki sepeda dan memakai angkutan adalah . . . .

    A. 1 siswa

    B. 2 siswa

    C. 3 siswa

    D. 4 siswa

LIVEWORKSHEETS
LIVEWORKSHEETS

14. Jumlah seluruh siswa yang berangkat ke sekolah ada . . . .

A. 27 siswa

B. 28 siswa

C. 29 siswa

D. 30 siswa

Perhatikan diagram untuk menjawan soal nomor 15-20!

Data Pengunjung Perpustakaan

15. Jumlah pengunjung pada hari Kamis adalah sebanyak . . . .

A. 4 orang

B. 12 orang

C. 20 orang

D. 25 orang

16. Jumlah pengunjung sebanyak 15 orang terjadi pada hari . . . .

A. Senin

B. Selasa

C. Rabu

D. Kamis

17. Jumlah pengunjung terbanyak, terjadi pada hari . . . .

A. Kamis, sebanyak 20 orang

B. Kamis sebanyak 4 orang

C. Rabu sebanyak 25 orang

D. Rabu sebanyak 5 orang

rawpixel
LIVEWORKSHEETS
LIVEWORKSHEETS

18. Selisih jumlah pengunjung pada hari Senin dan Sabtu adalah . . . .

A. 2 orang

B. 4 orang

C. 5 orang

D. 10 orang

19. Selisih pengunjung pada dari Rabu dan Sabtu adalah . . . .

A. 30 orang

B. 20 orang

C. 6 orang

D. 4 orang

20. Jumlah pengunjung perpustakaan selama 1 pekan/minggu adalah sebanyak . . . .

A. 75 orang

B. 80 orang

C. 85 orang

D. 90 orang

LIVEWORKSHEETS
LIVEWORKSHEETS