REPRESENTACIÓN GRÁFICA DE LOS NÚMEROS

Utilizando el material multibásico representamos los millares, las centenas, las decenas y las unidades de la siguiente manera:



Millar Centena Decena Unidad

- Escribe los números que se están representando con el material multibásico.

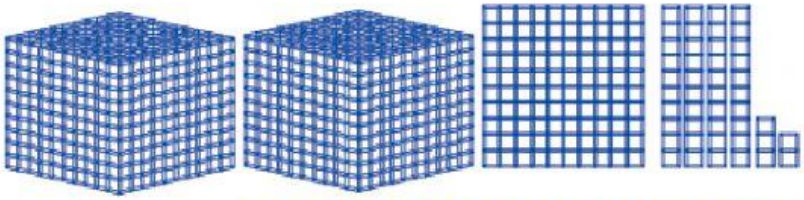

UM	C	D	U



UM	C	D	U

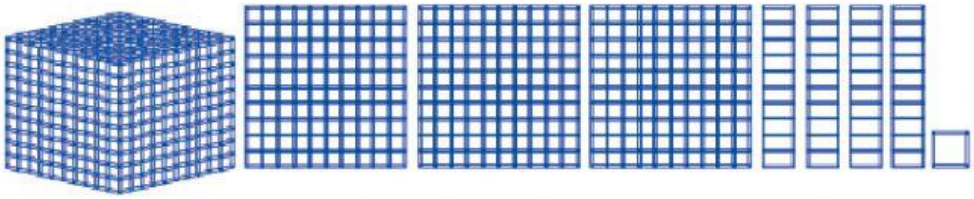

UM	C	D	U

LIVEWORKSHEETS

¿Cuál es el valor de posición?

1. Indica qué lugar del tablero posicional le corresponde.

Observa el ejemplo:

6 4 3 2

3 Decenas

6 Unidades de millar

3 4 5 6

_____

_____

4 5 4 8

_____

_____

6 9 0 3

_____

_____

4 9 5 1

_____

_____

9 4 9 2

_____

_____

5 6 4 6

_____

_____

9 6 0 4

_____

_____

8 1 0 8

_____

_____

7 9 2 1

_____

_____

LIVEWORKSHEETS

¡A pintar!

1. Colorea del mismo color, la llave con la puerta que corresponda.

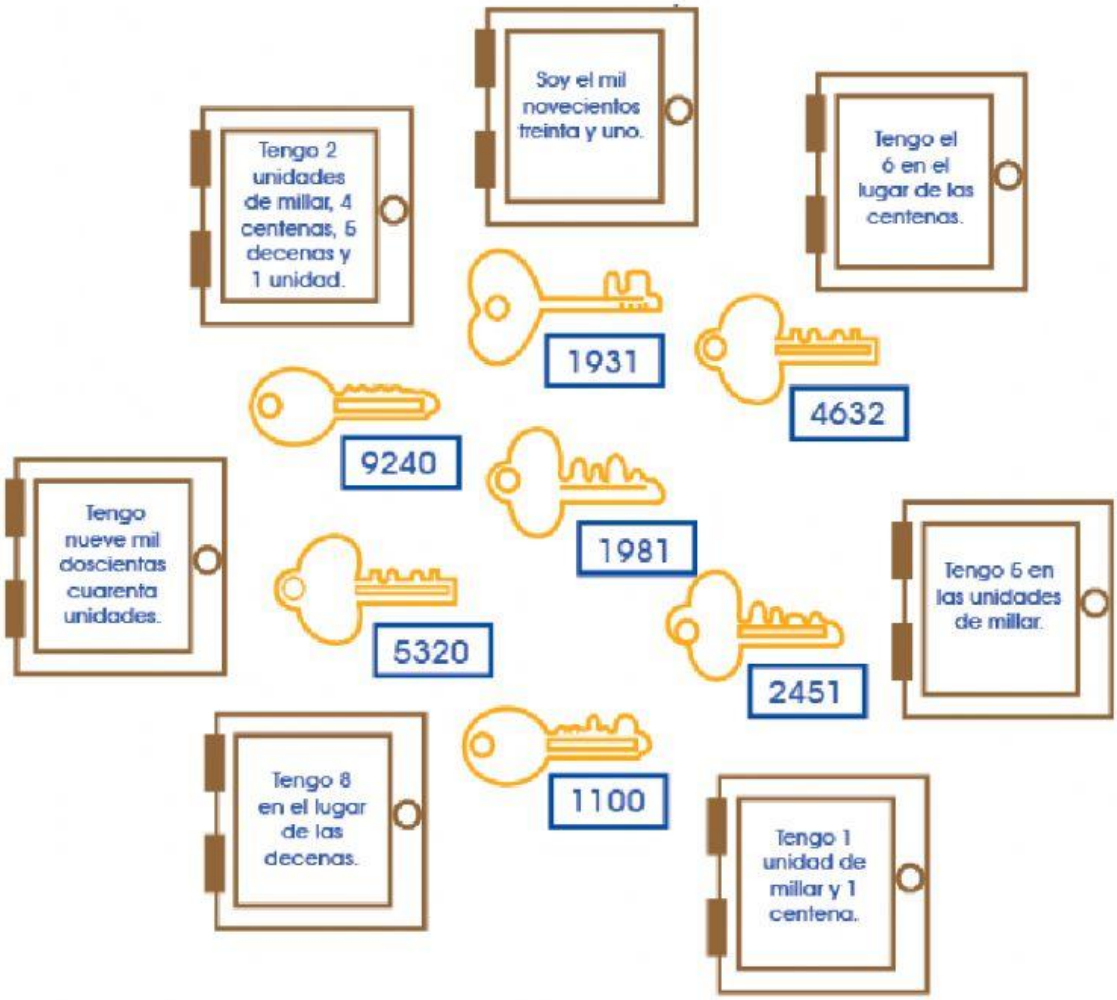

2. Completa:

- 1 centena = 10 decenas = 100 unidades.
- 2 centenas = _____ decenas = _____ unidades.
- 5 centenas = _____ decenas = _____ unidades.
- _____ centenas = 70 decenas = 700 unidades.
- 3 centenas = _____ decenas = _____ unidades.
- _____ centenas = 40 decenas = _____ unidades.
- _____ centenas = 60 decenas = _____ unidades.
- _____ centenas = _____ decenas = 900 unidades.
- _____ centenas = _____ decenas = 800 unidades.

LIVEWORKSHEETS

Tablero de valor posicional

1. Ubica los siguientes números en el Tablero de Valor Posicional:

	UM	C	D	U
- 47				
- 7 203				
- 814				
- 3 175				
- 962				
- 5 482				
- 25				
- 791				
- 8 242				
- 101				

2. Descompone cada uno de los números anteriores:

- 15 = 1D + 5U
- 9 163 = 9UM + 1C + 6D + 3U
- 814 = _____
- 7 175 = _____
- 162 = _____
- 5 182 = _____
- 3 412 = _____
- 191 = _____
- 5 242 = _____
- 20 = _____

LIVEWORKSHEETS

3. ¿Qué número es ?

- 5UM +3C + 2U =_____
- 8U + 4UM + 6C =_____
- 7C + 8 U + 9UM =_____
- 7UM + 7U =_____
- 5D + 6C =_____
- 3UM + 8C + 3D =_____
- 2UM + 5U =_____

4. Ahora, realiza la descomposición en unidades.

- 3 285 = 3 0 0 0 + 2 0 0 + 8 0 + 5
- 6 004 =_____
- 1 228 =_____
- 4 573 =_____
- 910 =_____
- 8 640 =_____
- 9 007 =_____
- 205 =_____
- 38 =_____
- 1 247 =_____
- 692 =_____
- 68 =_____

LIVEWORKSHEETS

Desafíos Matemáticos

1.-Escribe el nombre de las siguientes cantidades:

10,822	
1,700	
100,525	
35,000,430	
96,678	

2.- Escribe con número las siguientes cantidades:

Un millón quinientos mil:	
Dos millones cincuenta mil cinco:	
Tres millones cuarenta y tres mil:	
Once millones cuatrocientos doce mil ochocientoscuarenta y siete:	
Seiscientos mil trescientos cuarenta:	

3.Ordena de <u>mayor</u> a <u>menor</u> los números siguientes:

2,307 **34,609** **2,748,560** **340,756**

LIVEWORKSHEETS