Nombre y apellidos:		Curso:		Fecha: Calificación:	

1. Observa las siguientes rectas y completa las oraciones.

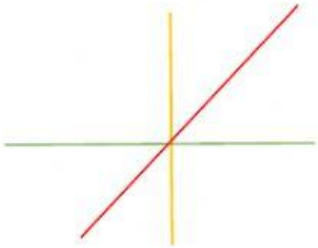

- Las rectas amarilla y verde son _____
- Las rectas roja y amarilla son_____
- Las rectas roja y verde son_____

Si dibujas una recta azul que sea paralela a la roja,
¿cómo es respecto a las rectas amarilla y la verde? _____

2. Observa el plano y completa las oraciones con **paralela** o **secante.**

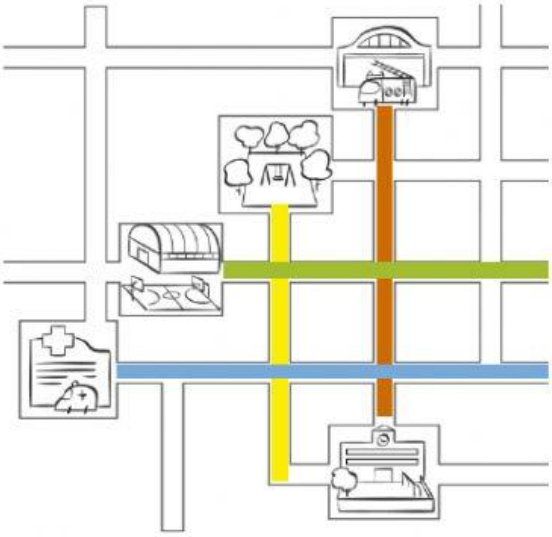

Al parque ingresamos por la calle amarilla que es ..... a la calle naranja.

La calle naranja del cuartel de bomberos es ..... a la calle verde del polideportivo.

La calle del polideportivo es ..... a la calle celeste del hospital y ..... a la calle naranja de los bomberos.

3. Observa y escribe qué tipos de ángulos son.

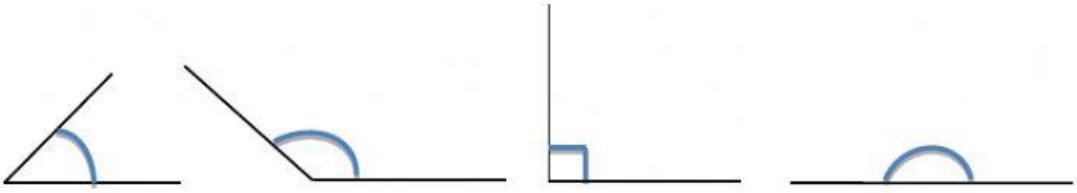

_____ _____ _____ _____

4. Escribe el nombre de los elementos de este ángulo.

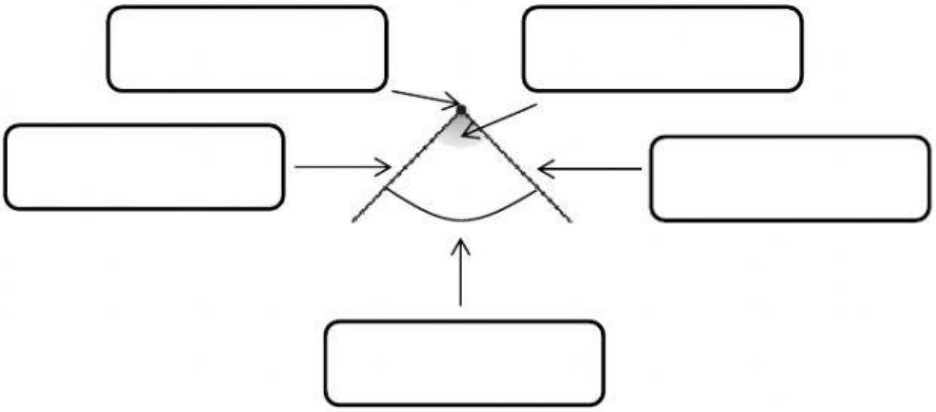

5. Escribe que dibujos están girados, cuales trasladados y cuales son simétricos.

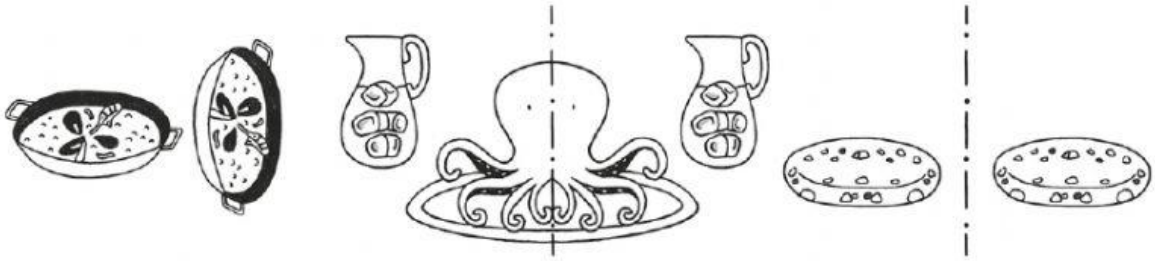

_____ _____ _____

6. Los alumnos de 3.º de Primaria fueron ayer de excursión a la laguna Coldada. Hoy han dibujado en clase un plano del recorrido. Observa el plano y completa con las coordenadas o con los nombres de los elementos.

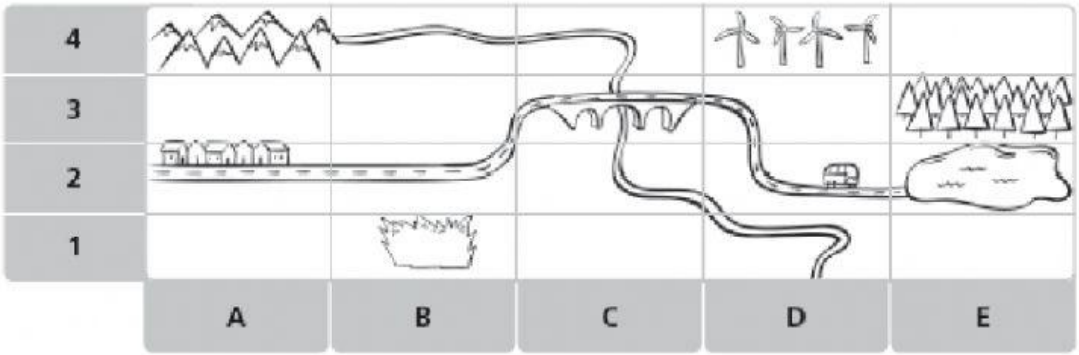

Laguna (_____, _____)

Bosque (_____, _____)

Montañas (_____, _____)

Pueblo (_____, _____)

_____ (C, 3)

_____ (D , 4)

7. Realiza las siguientes operaciones.

154 – 101 = _____

587 + 101 = _____

458 + 99 = _____

841 – 101 = _____

459 + 101 = _____

121 – 99 = _____

890 – 101 = _____

520 + 101 = _____

840 + 99 = _____