Họ và tên: Lớp: 1

PHIẾU BÀI TẬP TUẦN 28

MÔN TOÁN

Bài 1: Đặt tính rồi tính

46 + 13

.....
+
.....
.....

25 + 42

.....
+
.....
.....

71 + 8

.....
+
.....
.....

66 + 3

.....
+
.....
.....

Bài 2: Tính nhẩm

3 + 2 = ... 5 + 4 = ... 80 + 2 = ...

43 + 2 = ... 45 + 4 = ... 87 + 2 = ...

63 + 2 = ... 95 + 4 = ... 1 + 92 = ...

Bài 3: Hộp bút chì màu của anh có 24 chiếc. Hộp bút chì màu của em có 32 chiếc. Hỏi cả hai anh em có tất cả bao nhiêu chiếc bút chì màu?

Phép tính:

Trả lời: Cả hai anh em có tất cả chiếc bút chì màu.

LIVEWORKSHEETS

Bài 4: Nối

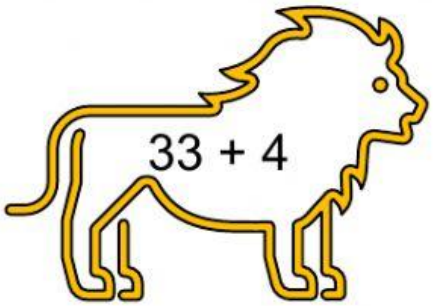

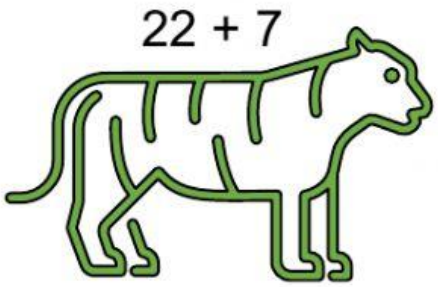

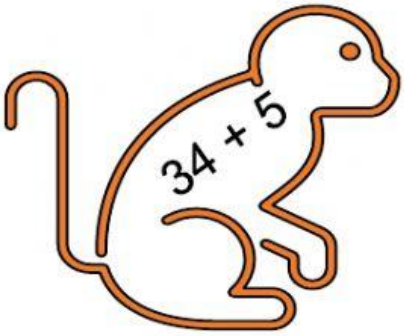

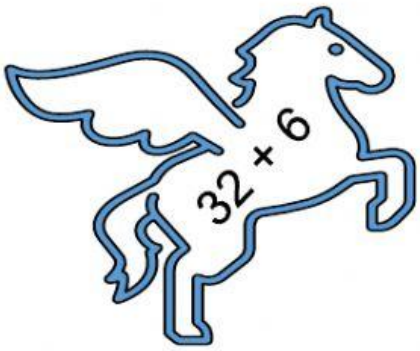

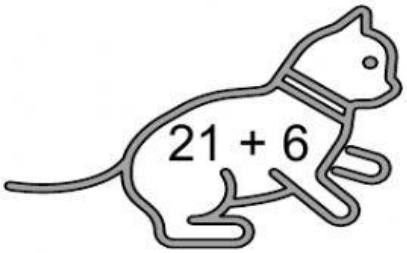

28

29

27

38

37

39

Bài 5: Viết các số còn thiếu vào ô trống theo mẫu.

+	1	2	41	32
37	**38**			
41				

LIVEWORKSHEETS