Elemente de geometrie

1. **Câtul numerelor din interiorul dreptunghiului este:** ☐

Diferența numerelor din interiorul triunghiului este: ☐

Suma celor două rezultate obținute este: ☐

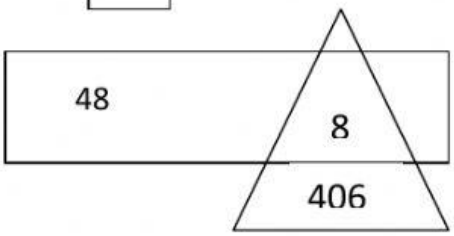

2. Scrie A sau F:

Pătratul are toate laturile egale.		Triunghiul este o linie frântă deschisă.	
Sfera este o figură geometrică.		Cercul este o linie curbă închisă.	
Cubul are 4 fețe.		Conul seamănă cu un coif.	

3. Unește corect:

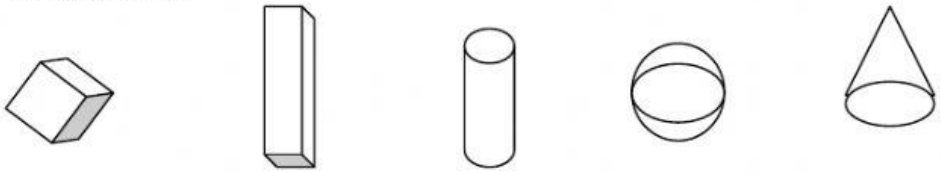

cuboid con cub cilindru sferă

4. Scrie în tabel câte figuri geometrice de fiecare fel sunt:

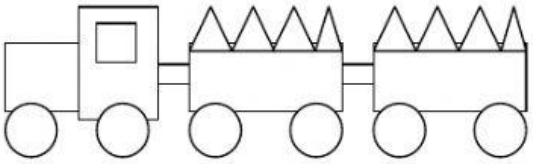

Figura	Numărul
cercuri	
pătrate	
dreptunghiuri	
triunghiuri	

5. Dan a desenat 8 pătrate, de 4 ori mai multe triunghiuri și cercuri cu 5 mai puține decât pătrate. Câte figuri geometrice a desenat Dan? Bifează răspunsul corect!

45 ☐ **44** ☐ **43** ☐ **42** ☐

LIVEWORKSHEETS