NOME:_____

1 FAÇA GRUPOS DE 10 E COMPLETE.

☐ DEZENAS E ☐ UNIDADES

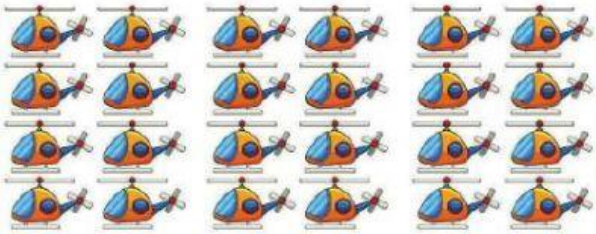

☐ DEZENAS E ☐ UNIDADES

☐ DEZENAS E ☐ UNIDADES

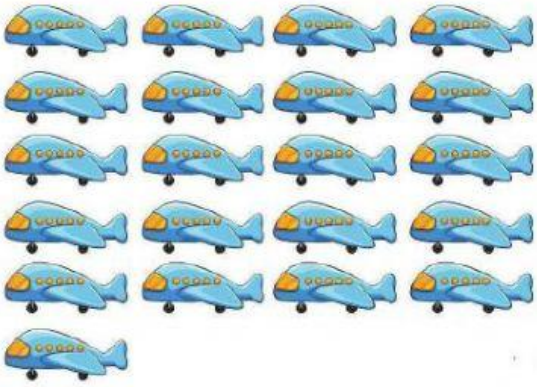

☐ DEZENAS E ☐ UNIDADES



☐ DEZENAS E ☐ UNIDADES



☐ DEZENAS E ☐ UNIDADES

LIVEWORKSHEETS

❷ ACHE A QUANTIDADE DE DEZENAS E UNIDADES QUE CADA CRIANÇA CONSEGUIU COM O MATERIAL DOURADO.



A) QUAL FOI A CRIANÇA QUE CONSEGUIU JUNTAR MAIS PEÇAS DO MATERIAL DOURADO? _____

B) QUAL FOI A CRIANÇA QUE CONSEGUIU JUNTAR MENOS PEÇAS DO MATERIAL DOURADO? _____

C) SOMANDO AS PEÇAS DE MARIA E GABRIEL QUANTO FICA? _____

D) SOMANDO AS PEÇAS DE HELEN E ANNY QUANTO FICA? _____

LIVEWORKSHEETS