EJERCICIOS DE APLICACIÓN

* **Convertir:**

1. 3 pies a pulgadas

   a) 12 b) 4 c) 48
   d) 36 e) 24

2. 3 m a pies

   a) 2 b) 4 c) 6
   d) 8 e) 10

3. Determine el perímetro de un cuadrado de 5m de lado.

   a) 5 m b) 2 m c) 3 m
   d) 20 m e) 8 m

4. Determine el perímetro del rectángulo en la figura:

   a) 2 m
   b) 7 m
   c) 14 m
   d) 16 m
   e) 20 m

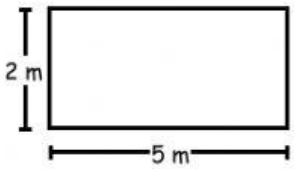

5. Determinar el perímetro del triángulo:

   a) 3 m
   b) 6 m
   c) 8 m
   d) 7 m
   e) 9 m

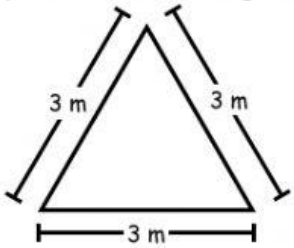

6. Determine el perímetro del triángulo:

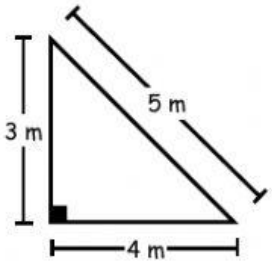

7. En 2 decalitros, ¿cuántos litros hay?

   a) 20 b) 2 c) 2000
   d) 200 e) 25

8. En 1 Hm, ¿cuántos metros hay?

   a) 10 b) 1 c) 100
   d) 1000 e) 10 000

9. En 1 kg, ¿cuántos gramos hay?

   a) 1 b) 1000 c) 10 000
   d) 10 e) 20

10. En 2 libras, ¿cuántas onzas hay?

    a) 16 b) 32 c) 64
    d) 72 e) 108

LIVEWORKSHEETS