Bài 144. **LUYỆN TẬP**

1. Viết số hoặc tỉ số vào chỗ chấm :

a)

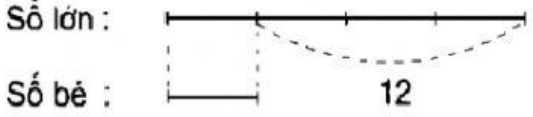

Hiệu của hai số bằng .....

Số lớn được biểu thị là ..... phần bằng nhau.

Số bé được biểu thị là ..... phần như thế.

Tỉ số của số lớn và số bé là .....

Hiệu số phần bằng nhau là ..... phần.

b)



Hiệu của hai số bằng .....

Số bé được biểu thị là ..... phần.

Số lớn được biểu thị là ..... phần như thế.

Tỉ số của số bé và số lớn là .....

Hiệu số phần bằng nhau là ..... phần.

2. Mẹ hơn con 26 tuổi. Tính tuổi của mỗi người, biết rằng tuổi mẹ gấp 3 lần tuổi con.

Bài giải

Con vẽ sơ đồ ra vở, ghi số phần tương ứng mà con vẽ ở sơ đồ:.....

Hiệu:.....tuổi.....

Tuổi mẹ: phần.....

Tuổi con: phần.....

.....

.....

.....

.....

.....

.....

LIVEWORKSHEETS

3. Dựa vào sơ đồ, giải bài toán :

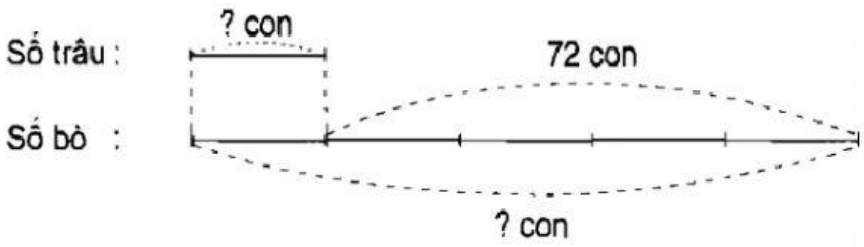

.....

.....

.....

.....

.....

.....

.....

.....

LIVEWORKSHEETS