1. Une los términos con cada definición.

Energía Manual	Utilizan la energía de los humanos o animales.
Energía eléctrica	Utilizan energía eléctrica para funcionar.
Energía térmica	Queman combustible para funcionar

2. Indica las partes de estas palancas y di de qué tipo se tratan.





3. Completa estas oraciones sobre las propiedades de la materia.

_____ es el espacio que ocupa un cuerpo.

_____ se mide en gramos (g).

_____ es la cantidad de materia que tiene un objeto.

_____ se mide en mililitros (ml)

_____ es la relación entre la masa de un objeto y su volumen.

4. Escribe "fuerza de contacto" o "fuerza de no contacto".

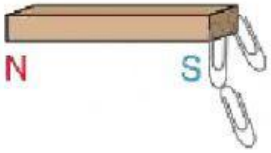

Un imán atrae clips.

_____

Tira una pelota de fútbol.

_____

Empuja el carrito de la compra.

_____

Una hoja cae al suelo.

_____

5. Clasifica estos objetos.

Cochecito

Nubes

Gomas elásticas

Globos

Arcilla

Mesa de madera

Maleable	Elástico	Rígido