اختر الإجابة الصحيحة/

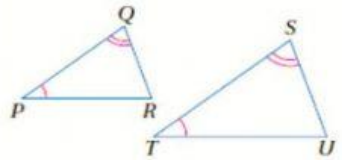

١ لإثبات تشابه المثلثين الآتيين ، نستعمل المسلمة التالية :

A AA

B SSS

C SAS

D ASA

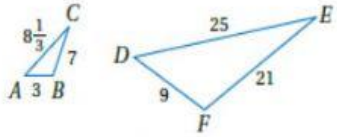

٢ لإثبات تشابه المثلثين الآتيين ، نستعمل النظرية التالية :

A AA

B SSS

C SAS

D ASA

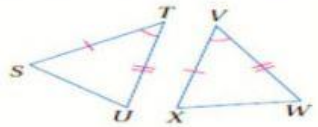

٣ لإثبات تشابه المثلثين الآتيين ، نستعمل النظرية التالية :

A AA

B SSS

C SAS

D ASA

LIVEWORKSHEETS