الكسور بوصفها أجزاء من الكل

اسم الطالب:	الصف : /

أكمل ما يأتي:

اكتب الكسر الذي يمثل الجزء الملون:

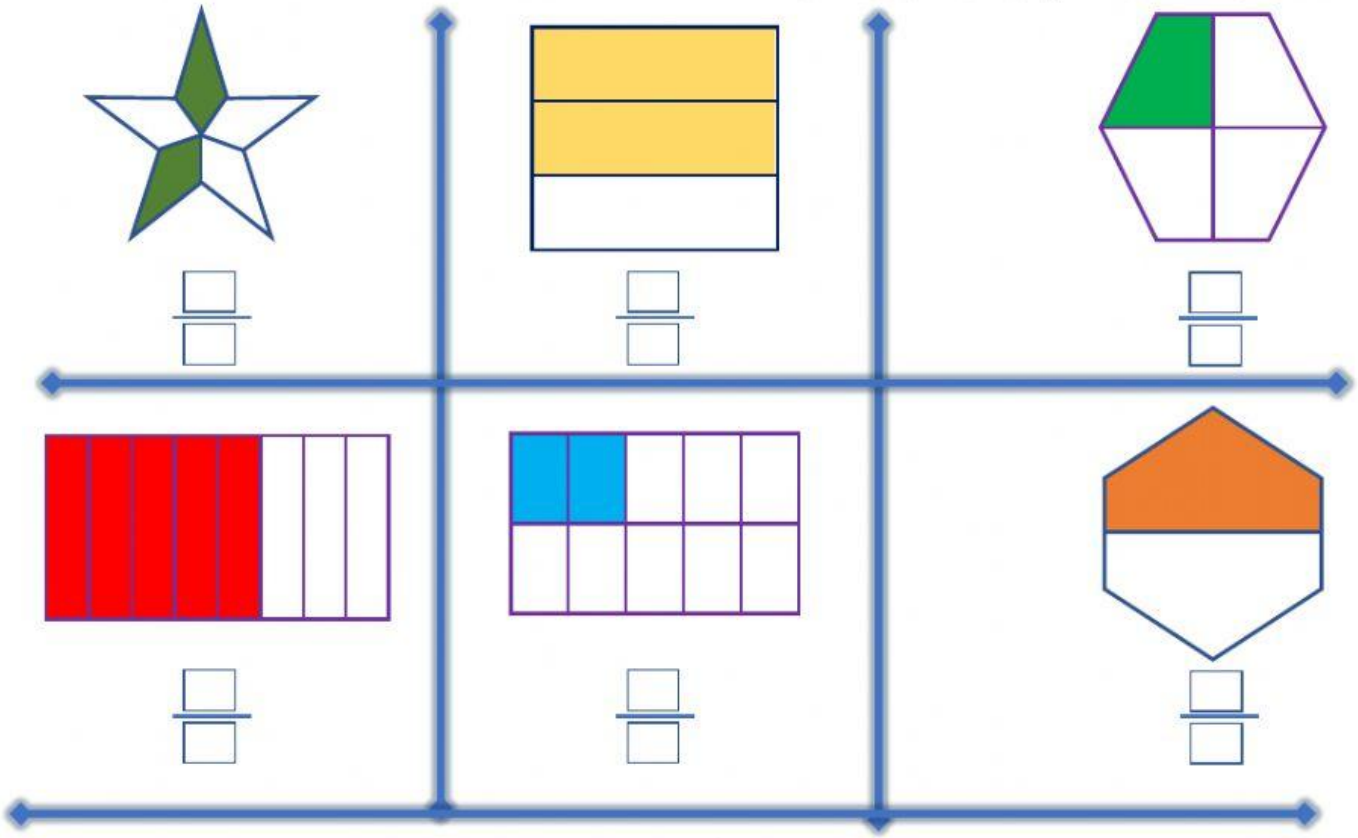

اكتب الكسر الذي يمثل الجزء الملون بالأصفر:

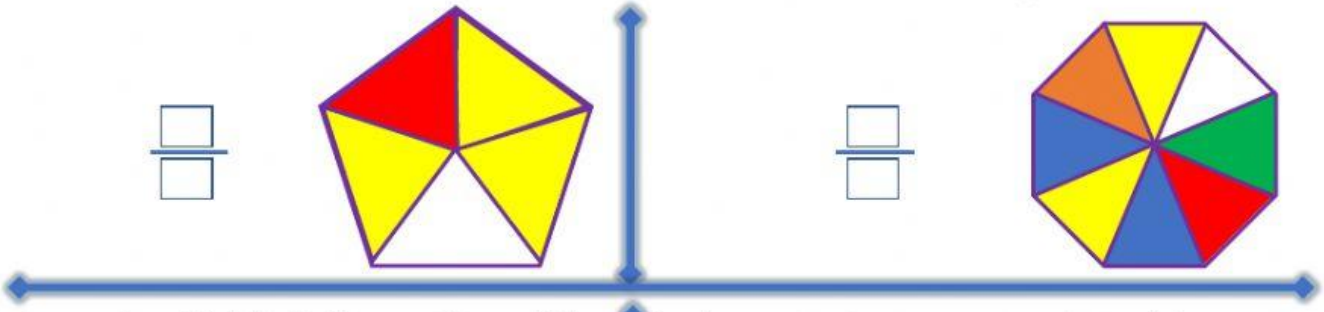

جزء من فطيرة البيتزا يحتوي على الجبن فقط. اكتب الكسر الذي يدل على هذا الجزء.



ما الكسر الذي يمثل الخلايا التى تحوي نحلا؟

إعداد مدرس المادة :

أ. غـديـر البـري

LIVEWORKSHEETS