Nama: [redacted] Kelas : [redacted]

Bangun Ruang Sisi Datar

Kerjakan lembar kerja sesuai dengan petunjuk masing-masing soal !

Petunjuk

Pasangkan Gambar dibawah ini dengan menarik garis

1

Balok

2

LIMAS

3



Prisma

4

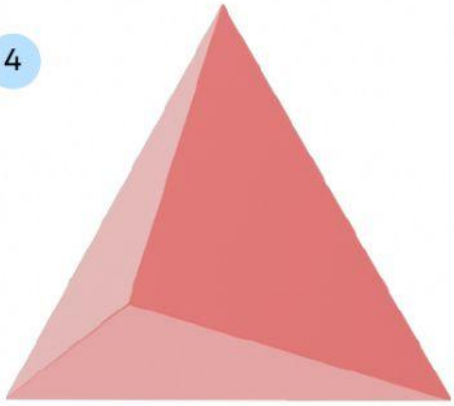

Kubus

LIVEWORKSHEETS

Mengasah Otak apakah sudah tajam atau masih tumpul dengan game !

Perhatikan Gambar dibawah ini ya !

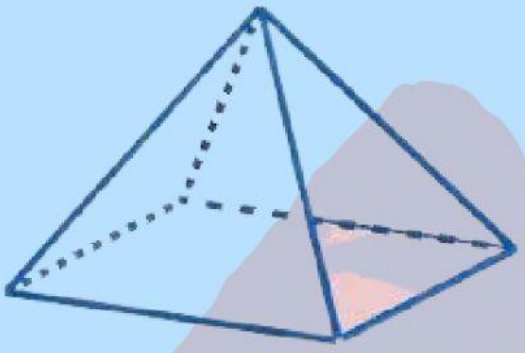

Nama bangun :

Banyak Rusuk :

Banyak Sisi :

LIVEWORKSHEETS

TETAP SEMANGAT

Geser dan pindahkan rumus dibawah ini pada rumus yang sesuai !

$L = t \times (\text{Keliling Alas}) + (2 \times La)$

$V = \text{Luas alas} \times t$

$V = s \times s \times s$

$L = 6 \times s^2$

$V = p \times l \times t$

$L = 2 \times (p.l + p.t + l.t)$

Luas = Luas alas + jumlah luas sisi tegak

Volume = ⅓ x luas alas x tinggi

LUAS PERMUKAAN PRISMA _____

VOLUME PRISMA _____

VOLUME BALOK _____

LUAS PERMUKAAN BALOK _____

LUAS PERMUKAAN KUBUS _____

VOLUME KUBUS _____

VOLUME LIMAS _____

LUAS PERMUKAAN LIMAS _____

LIVEWORKSHEETS

Berilah Tanda centang Benar atau Salah pada masing- masing Pernyataan dibawah ini !

No	Pernyataan	Benar	Salah
1	Limas Segiempat memiliki 4 titik sudut		
2	Limas Segiempat memiliki 6 rusuk alas dan 4 rusuk tegak		
3	Limas segitiga memiliki 4 titik sudut		
4	Volume Limas ⅓ x luas alas x tinggi		
5	Luas Permukaan Limas adalah = Luas alas + jumlah luas sisi tegak		
6	Volume Prisma adalah Luas alas x tinggi		
7	Luas Permukaan Prisma adalah (2 x luas alas) + (keliling alas x tinggi)		

THANK YOU

Healing dulu gess habis ngasah otak

DIBUAT OLEH RISMAWATI, S.PD
SMP NEGERI 3 BONTANG

LIVEWORKSHEETS