Segna con una ✗ la risposta giusta.

La lunghezza

1 Aldo misura a passi la lunghezza della sua aula, la 2ª C.
Quanti passi compie, secondo te?

- ☐ 2 passi.
- ☐ 14 passi.
- ☐ 100 passi.

Il peso

2 Osserva i piatti della bilancia.
Quale oggetto pesa di più?

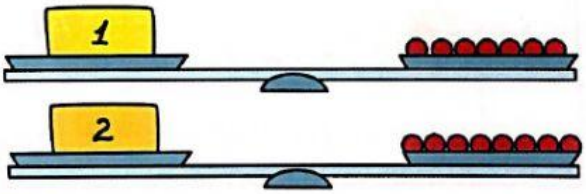

- ☐ Hanno lo stesso peso.
- ☐ La scatola n. 1.
- ☐ La scatola n. 2.

La capacità

3 Quante bottiglie d'acqua occorrono per riempire una tanica? Osserva.



☐ 3 ☐ 2 ☐ 4

La moneta

4 Quale borsellino contiene 1 euro?



☐ A
☐ B
☐ C

Relazioni

5 Quale gatta può entrare nel gruppo?

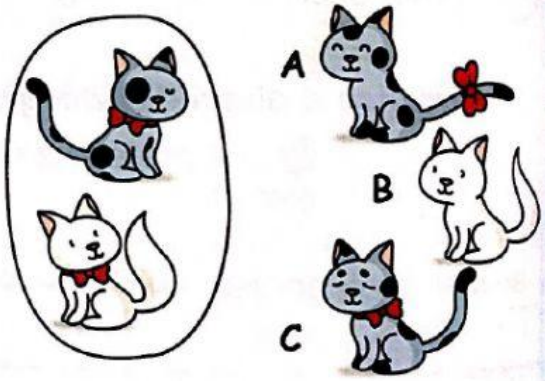

☐ A ☐ B ☐ C

6 Osserva. Puoi comperare la brioche e il bignè?

☐ Certo. ☐ Possibile. ☐ Impossibile.