1. Составь выражения по рисункам. Вычисли их значения.

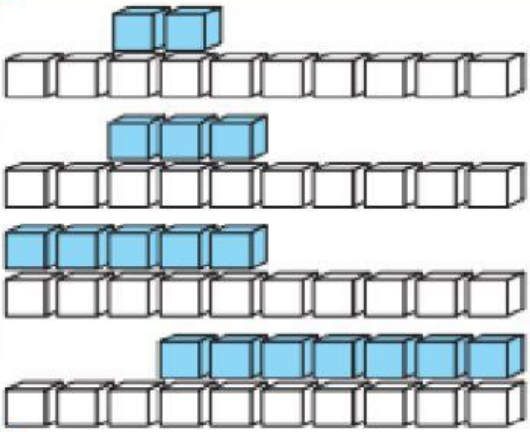

10 + 2 = 12

2. 10 + 9 = ☐☐ 10 + 8 = ☐☐ 10 + 6 = ☐☐

10 + 4 = ☐☐ 10 + ☐ = 17 10 + ☐ = 19

3. Составь и реши задачу.

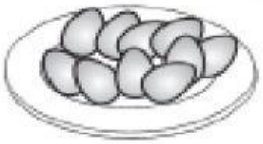

на 3 яйца больше

Ответ:

1. Запиши полученные числа.

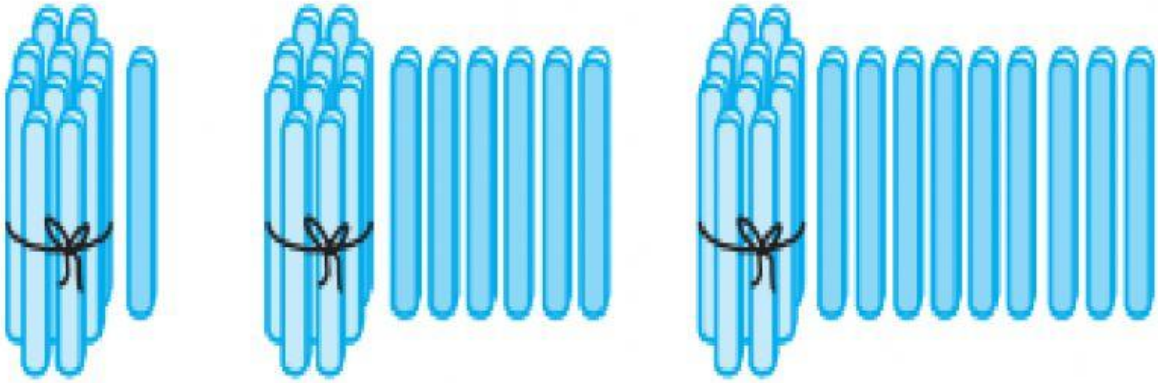

LIVEWORKSHEETS