Pasangkan gambar berikut dengan pecahan yang sesuai!

Banyaknya siswa laki-laki pada kumpulan siswa berikut sesuai dengan nilai pecahan …

■ $\frac{1}{2}$

■ $\frac{1}{3}$

■ $\frac{1}{4}$

LIVEWORKSHEETS

Banyaknya siswa perempuan pada kumpulan siswa berikut sesuai dengan nilai pecahan …



■ $\frac{1}{2}$

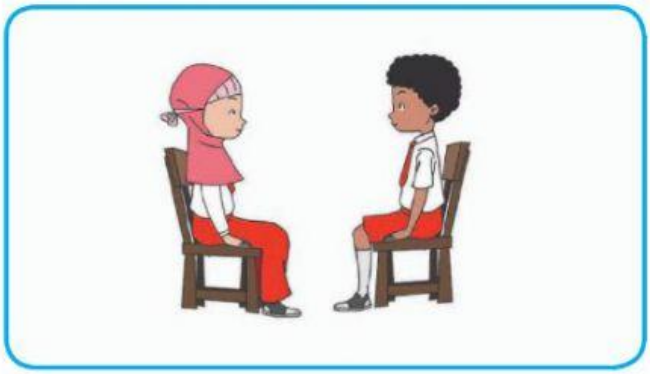

■ $\frac{1}{3}$



■ $\frac{1}{4}$

LIVEWORKSHEETS

LIVEWORKSHEETS