Họ và tên:.....

Lớp:.....

ĐỌC – VIẾT HỖN SỐ

NỘI DUNG KIẾN THỨC:

Có 2 cái bánh và $\frac{5}{8}$ cái bánh

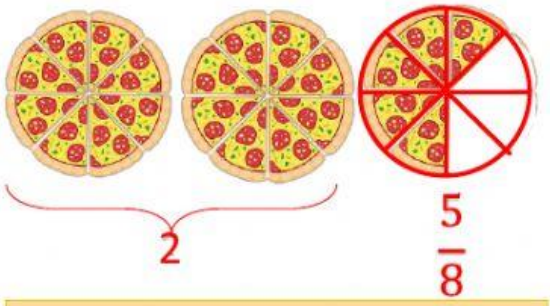

2 và $\frac{5}{8}$ hay $2 + \frac{5}{8}$ viết thành $2\frac{5}{8}$

Ta nói gọn có 2 và $\frac{5}{8}$ cái bánh

Viết gọn: $2\frac{5}{8}$ cái bánh

$2\frac{5}{8}$ gọi là hỗn số

$2\frac{5}{8}$ đọc là : hai và năm phần tám

$2\frac{5}{8}$

phần nguyên — phần phân số

$2\frac{5}{8}$ có 2 là phần nguyên, $\frac{5}{8}$ là phần phân số

Phần phân số của hỗn số bao giờ cũng bé hơn phần đơn vị

LUYỆN TẬP

Bài 1: Dựa vào hình vẽ, đọc và viết hỗn số trong các trường hợp sau:

a

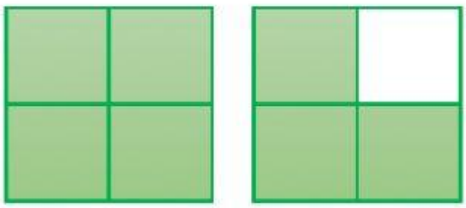

Viết : _____

Đọc : .....

b)

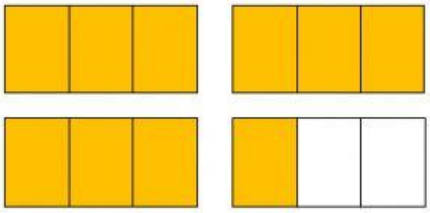

Viết : _____

Đọc : .....

LIVEWORKSHEETS

Bài 2: Hoàn thành bảng sau:

Viết	Đọc
$2\frac{2}{5}$	.....
——	Ba và hai phần ba

Bài 3: Chọn đáp án đúng nhất:

a) Hỗn số $5\frac{4}{9}$ có phần nguyên là:

4 5 9 18

b) Hỗn số $12\frac{3}{8}$ có phần nguyên là:

23 12 8 3

a) Hỗn số $9\frac{2}{5}$ có phần nguyên là:

2 5 9 16

LIVEWORKSHEETS