A. Pilihlah jawaban yang tepat!

1. Perhatikan $\angle PSQ$ berikut!
Garis yang merupakan kaki sudutnya adalah . . . .

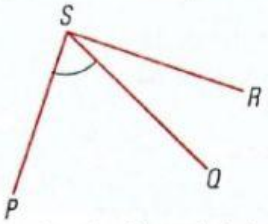

a. PQ
b. QR
c. RS
d. QS

2. Nama sudut pada gambar berikut adalah . . . .



a. $\angle TXO$
b. $\angle TOX$
c. $\angle XTO$
d. $\angle OTX$

3. Gambar berikut yang merupakan sudut tumpul adalah . . . .

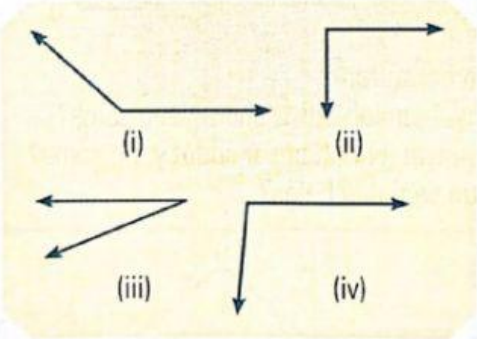

a. (i) dan (ii)
b. (i) dan (iii)
c. (i) dan (iv)
d. (iii) dan (iv)

4. Besar $\angle ABC$ pada gambar berikut adalah . . . .

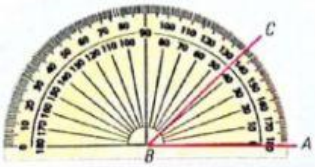

a. 145°
b. 135°
c. 55°
d. 45°

5.

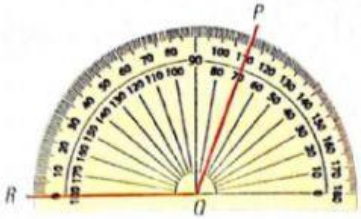

Besar $\angle PQR$ yang ditunjukkan pada gambar di atas adalah . . . .

a. 110°
b. 100°
c. 80°
d. 70°

6. Besar $\angle KLM = 180°$. Jenis $\angle KLM$ adalah sudut . . . .

a. lurus
b. lancip
c. tumpul
d. siku-siku

7. Besar sudut B pada gambar di samping adalah . . . .

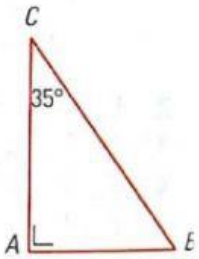

a. 45°
b. 55°
c. 65°
d. 75°

8. Besar setiap sudut pada segitiga sama sisi adalah . . . .

a. 30°
b. 45°
c. 60°
d. 90°

9. Besar sudut N pada bangun berikut adalah . . . .

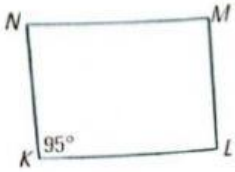

a. 75°
b. 80°
c. 85°
d. 90°

10. Diketahui sebuah trapesium siku-siku $PQRS$ dengan sudut P dan sudut R adalah sudut siku-siku. Jika besar sudut $Q = 30°$, besar sudut S adalah . . . .

a. 150°
b. 130°
c. 120°
d. 100°

Dipindai dengan CamScanner

LIVEWORKSHEETS
LIVEWORKSHEETS